Foundation Series | پلے گروپ | پرچہ اُردو | تھرڈ ٹرم | Time : 2:00 Hours

نام طالب علم:..... رول نمبر:.....

نام اسکول:.....

نوٹ: سوالات پرچے میں دی گئی جگہ پر ہی حل کریں۔ اضافی کاپی ہرگز مہیا نہیں کی جائے گی۔ حصہ معروضی میں کاٹ کر یا مٹا کر لکھے گئے جوابات غلط تصور ہوں گے۔

کل نمبر	حاصل کردہ نمبر	گریڈ	نتیجہ	دستخط ممتحن
50				

سوال نمبر 1: پڑھائی 10

سوال نمبر 2: ''آ ا'' سے ''ے'' تک مکمل حروف تہجی لکھیں: 20

آ	ا			ت			ج	
		خ			ذ			ز
			ش			ط		
غ				ک			م	
		ہ			ے			

سوال نمبر 3: دی گئی تصاویر کے نام کے پہلے حرف پر نشان (✓) لگائیں۔ 10

ج ○ غ ○

س ○ ص ○

غ ○ ف ○

ک ○ ق ○

و ○ ہ ○

سوال نمبر4: نیچے دی گئی تصاویر کے نام ان کے پہلے حرف سے ملائیں: 5

ش ص ف

سوال نمبر5: دیے گئے حروف کے نقاط آپس میں پنسل سے ملا کر حروف مکمل کریں اور بتایا گیا رنگ بھریں: 5

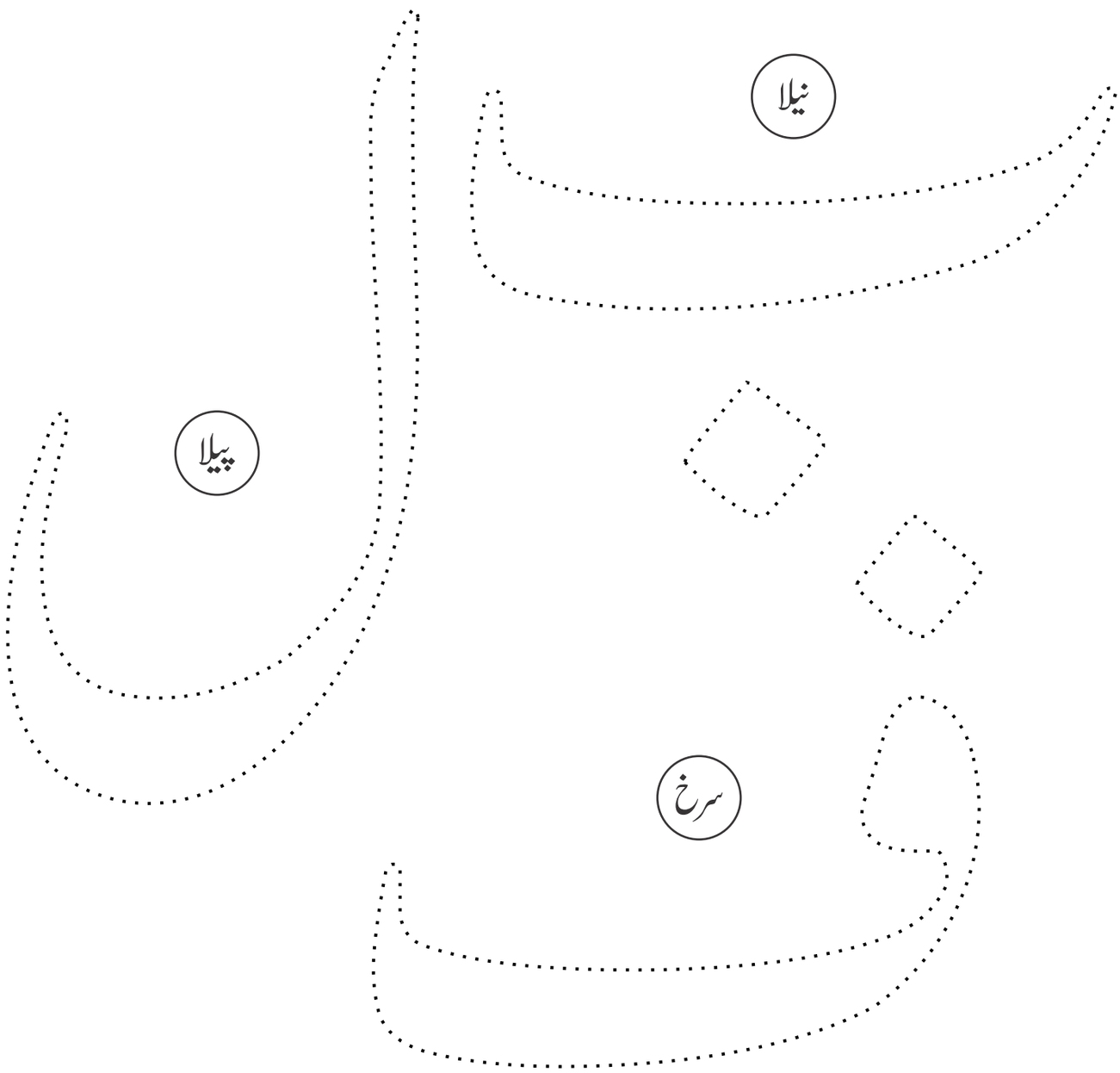

Foundation Series | *3rd Term* | *Ideal* **English** | **Play Group** | *Time : 2:00 Hours*

Student's Name: _____ Roll No: _____

School's Name: _____

نوٹ: سوالات پرچے میں دی گئی جگہ پر ہی حل کریں۔اضافی کاپی ہرگز مہیانہیں کی جائے گی۔معروضی میں کاٹ کر یا مٹا کر لکھے گئے جوابات غلط تصور ہوں گے۔

Total Marks	Obtained Marks	Grade	Remarks	Examiner Sign
50				

Q.No:1.Reading. 10

Q.No:2. Write the missing letters "A" to "Z" . 15

A			D		F
		I		K	
		O			R
	U			X		Z

Q.No:3. **Match with the first letter of the picture.** 10

L	
C	
P	
U	

Q.No:4. Match the pictures with their names. 10



Mug **Owl** **Rabbit** **Sparrow** **Pigeon** **Train**




Q.No.5 Trace and colour the letter. 5

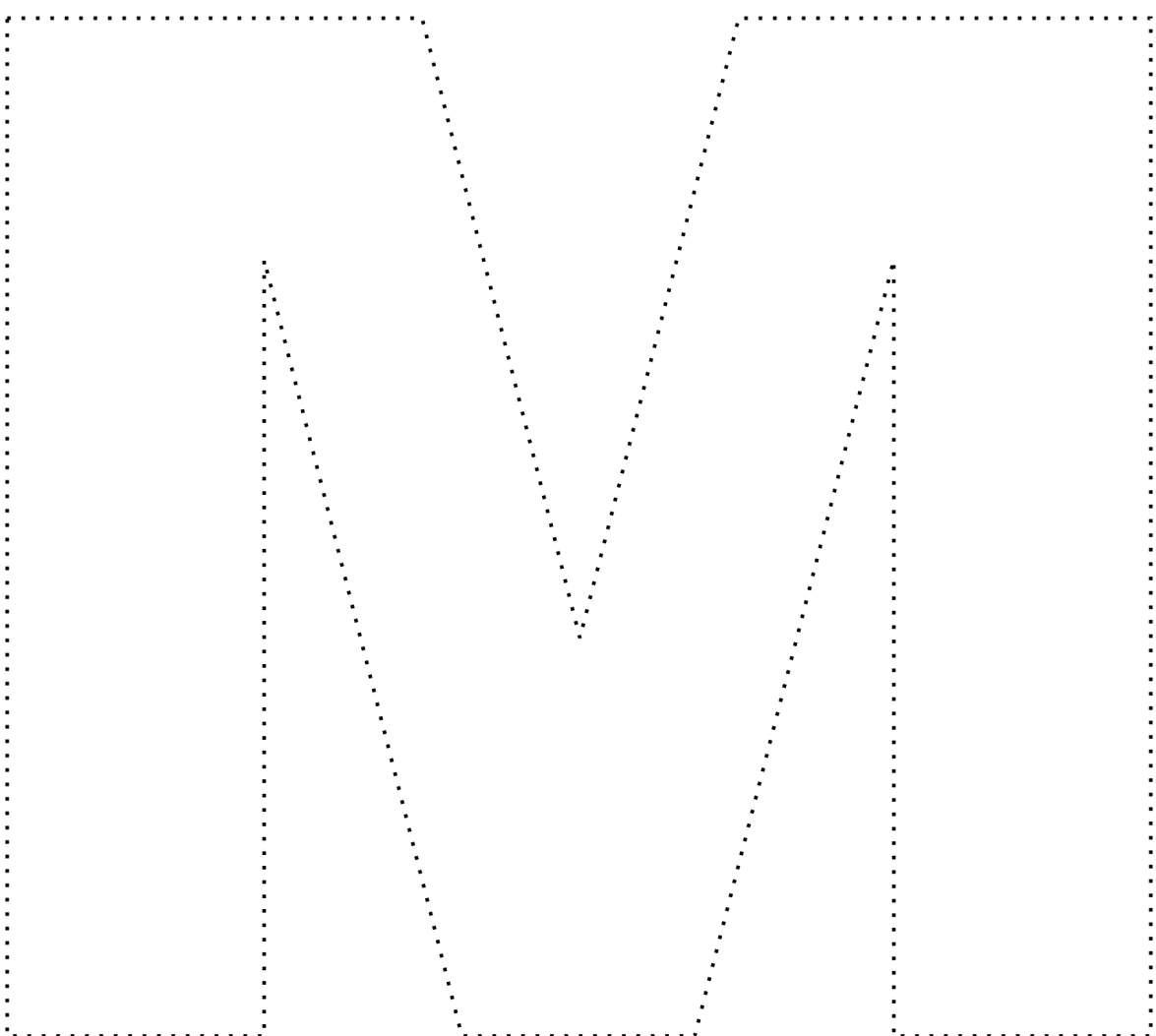

Foundation Series | *3rd Term* | *Calculative* **Maths** | **Play Group** | *Time : 2:00 Hours*

Student's Name: _____ Roll No: _____

School's Name: _____

نوٹ: سوالات پرچے میں دی گئی جگہ پر ہی حل کریں۔اضافی کاپی ہرگز مہیانہیں کی جائے گی۔معروضی میں کاٹ کر یا مٹا کر لکھے گئے جوابات غلط تصور ہوں گے۔

Total Marks	Obtained Marks	Grade	Remarks	Examiner Sign
50				

Q.No:1. Reading: 10

Q.No:2. Write counting "1" to "10": 10

Q.No:3. Count and write their numbers. 10

Q.No:4. Circle the number “3” and “5” in the given numbers: 5

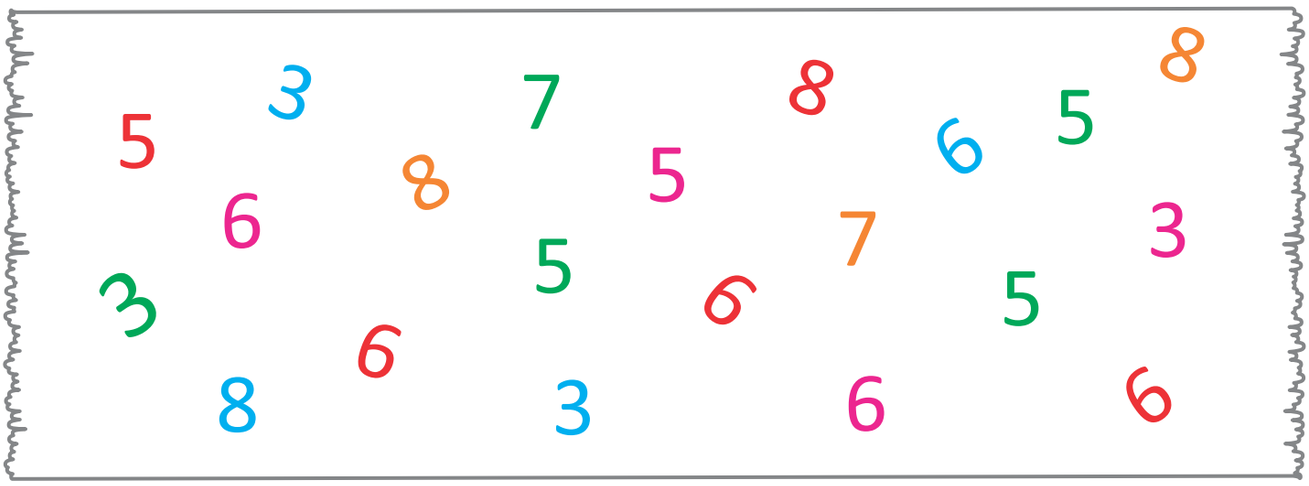

Q.No:5. Draw a line to join the number “8”: 5

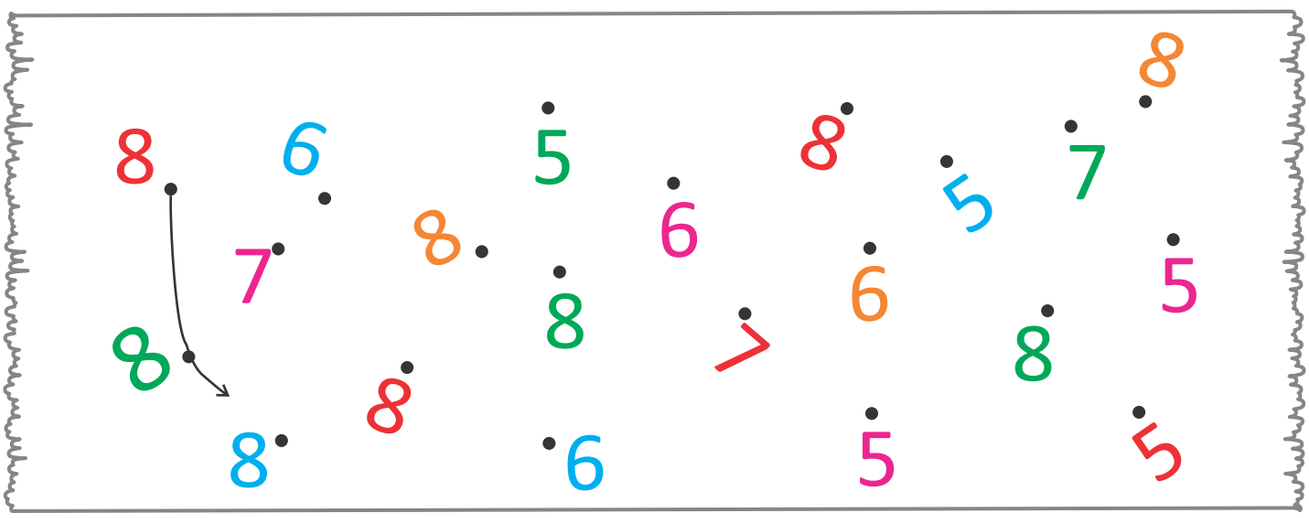

Q.No.6 Trace and colour the digit. 10



Foundation Series | تھرڈ ٹرم | پرچہ اُردو | نرسری | Time : 2:00 Hours

نام طالب علم:..... رول نمبر:.....

نام اسکول:.....

نوٹ: سوالات پرچے میں دی گئی جگہ پر ہی حل کریں۔ اضافی کاپی ہرگز مہیا نہیں کی جائے گی۔ حصہ معروضی میں کاٹ کر یا مٹا کر لکھے گئے جوابات غلط تصور ہوں گے۔

کل نمبر	حاصل کردہ نمبر	گریڈ	نتیجہ	دستخط ممتحن
50				

سوال نمبر ۱: پڑھائی۔ 10

سوال نمبر ۲: ''آ'' سے ''ے'' تک مکمل حروف تہجی لکھیں: 20

سوال نمبر: ۳۔ تصویر کے نام کا پہلا حرف لکھیں۔ 5

سوال نمبر:۴۔ بعد میں آنے والا حرف لکھیں۔ 5

ر _____ ز _____ س _____

ص _____ ط _____ ع _____

سوال نمبر:۵۔ تصویر کے درست لفظ کے گرد دائرہ لگائیں۔ 5

رسی رکشا

ربڑ پہاڑ

زرافہ زیبرا

شترمرغ سائیکل

سوال نمبر:۶۔ پنسل پھیریں اور رنگ بھریں۔ 5



Foundation Series | *3rd Term* | *Ideal* **English** | **Nursery** | *Time : 2:00 Hours*

Student's Name: _____ Roll No: _____

School Name: _____

نوٹ: سوالات پرچے میں دی گئی جگہ پر ہی حل کریں۔اضافی کاپی ہرگز مہیا نہیں کی جائے گی۔معروضی میں کاٹ کر یا مٹا کر لکھے گئے جوابات غلط تصور ہوں گے۔

Total Marks	Obtained Marks	Grade	Remarks	Examiner Sign
50				

Q.No:1.Reading. 10

Q.No:2.Write the missing alphabet: 15

a		c		e	
	h		j		l
m		o	p		r
	t		v		x
			z		

Q.No:3. Match each picture with its name. 5

Apple | Umbrella | Quill | Rabbit | Tree



Q.No:4. Look at the given pictures and write first letter of each picture. 10



___ uail	___ hoes	___ ose	___ wl	___ ango

Q.No:5. Tick (✓) the correct word. 5

Nest ○ Quill ○

jeep ○ Apple ○

Lion ○ Key ○

Apple ○ Quill ○

Zebra ○ Watch ○

Q.No.6 Trace and colour the letter. 5

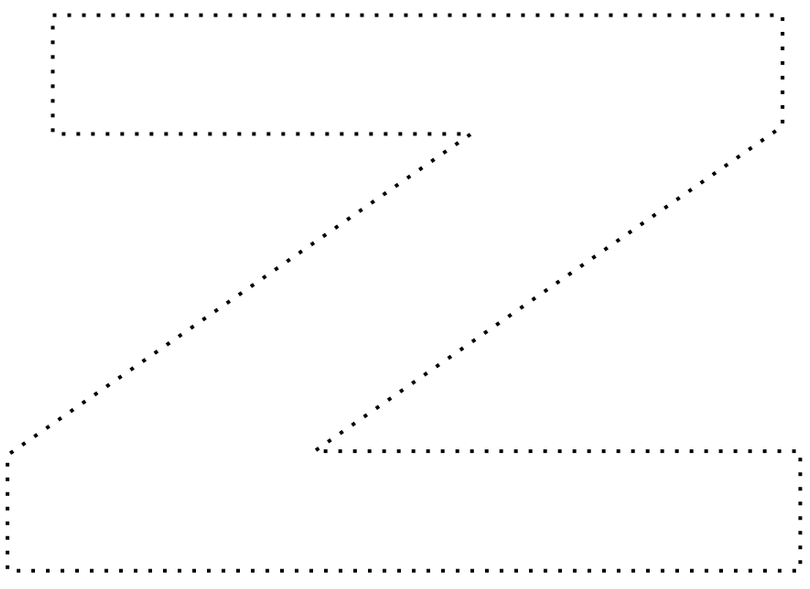

Foundation Series | *3rd Term* | *Calculative* **Maths** | **Nursery** | *Time : 2:00 Hours*

Student's Name: _____ Roll No: _____

School Name: _____

نوٹ: سوالات پرچے میں دی گئی جگہ پر ہی حل کریں۔اضافی کاپی ہرگز مہیا نہیں کی جائے گی۔معروضی میں کاٹ کر یا مٹا کر لکھے گئے جوابات غلط تصور ہوں گے۔

Total Marks	Obtained Marks	Grade	Remarks	Examiner Sign
50				

Q.No:1.Oral. 10

Q.No:2. Write Counting "25" to "45" 10

____	____	____	____	____	____	____	____	____	____
____	____	____	____	____	____	____	____	____	____

Q.No:3. Count apples and bananas and encircle the correct number. 5

5 6 7 8

5 6 7 8



Q.No:4. Count and write the number. 5



Q.No:5. Colour the long one in brown and short one in green. 10

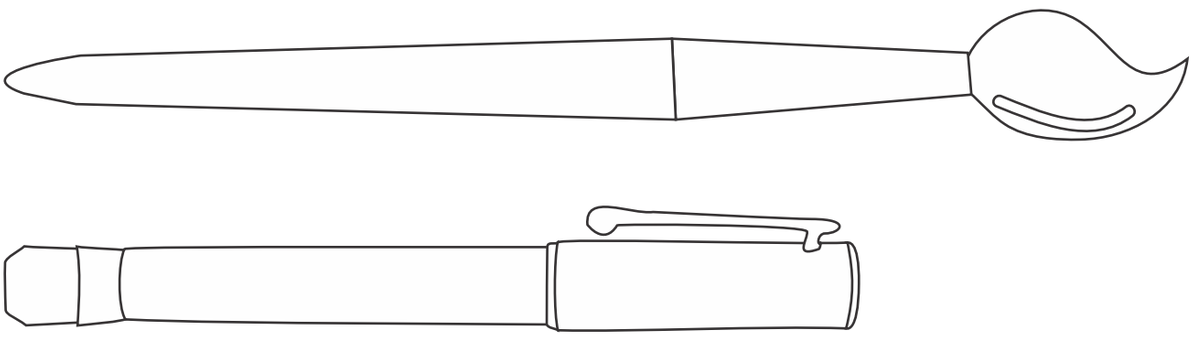

Q.No:6. Trace and colour the objects: 10



Foundation Series | *3rd Term* | **Computer** | **Nursery** | *Time : 2:00 Hours*

Student's Name: _____ Roll No: _____

School Name: _____

نوٹ: سوالات پرچے میں دی گئی جگہ پر ہی حل کریں۔اضافی کاپی ہرگز مہیا نہیں کی جائے گی۔معروضی میں کاٹ کر یا مٹا کر لکھے گئے جوابات غلط تصور ہوں گے۔

Total Marks	Obtained Marks	Grade	Remarks	Examiner Sign
50				

Q.No:1.Oral. 10

Q.No:2. Tick (✓) the correct picture. 10

Computer



Data Cabel



Q.No:3. Tick (✓) the correct picture. 10

Tablet

Virus

Q.No:4. Match the pictures with their names. 10

Yahoo



USB Flash Drive

LCD

Hard Disk

Q.No:5. Colour the given picture. 10



Foundation Series | تھرڈ ٹرم | پرچہ اُردو | پریپ | Time : 2:00 Hours

نام طالب علم: ..... رول نمبر: .....

نام اسکول: .....

نوٹ: سوالات پرچے میں دی گئی جگہ پر ہی حل کریں۔ اضافی کاپی ہرگز مہیا نہیں کی جائے گی۔ حصہ معروضی میں کاٹ کر یا مٹا کر لکھے گئے جوابات غلط تصور ہوں گے۔

کل نمبر	حاصل کردہ نمبر	گریڈ	نتیجہ	دستخط ممتحن
50				

سوال نمبر ۱۔ پڑھائی۔ 10

سوال نمبر ۲: "الف" سے "ے" تک حروف تہجی لکھیں: 10

سوال نمبر ۳: مندرجہ ذیل حروف تہجی پر زبر، زیر اور پیش لگائیں: 10

زبر	ا	ب	پ	ت	ٹ	ث	ج
زیر	چ	ح	خ	د	ڈ	ذ	ر
پیش	س	ش	ص	ض	ط	ظ	ع

سوال نمبر: ۴ جوڑ کے توڑ لکھیں۔ 5

الفاظ	توڑ
ایک	
آنکھ	
ڈھال	

الفاظ	توڑ
پیٹ	
قدم	
پہاڑ	

سوال نمبر: ۵ توڑ کے جوڑ لکھیں۔ 5

توڑ	الفاظ
ب چ	
پ ل	
خ و ن	

توڑ	الفاظ
ف ص ل	
ن ا ک	
د ع ا	

سوال نمبر: ۶ تصاویر کو ان کے ناموں کے ساتھ ملائیں۔ 5

تربوز　　پتّا　　لٹو　　آلو　　یونیفارم

سوال نمبر: ۷ اپنا نام خوش خط لکھیں۔ 5

Foundation Series | 3rd Term | Ideal English | Prep | Time : 2:00 Hours

Student's Name: _____ Roll No: _____

School Name: _____

نوٹ: سوالات پرچے میں دی گئی جگہ پر ہی حل کریں۔اضافی کاپی ہرگز مہیا نہیں کی جائے گی۔معروضی میں کاٹ کر یا مٹا کر لکھے گئے جوابات غلط تصور ہوں گے۔

Total Marks	Obtained Marks	Grade	Remarks	Examiner Sign
50				

Q.No:1.Reading. 10

Q.No:2. Write alphabet "a" to "z". 10

Q.No:3. Tick (✓) the correct option. 5

He	She	is a girl.		She	He	is a doctor.
He	She	is a woman.		She	He	is a man.
He	She	is a lady doctor.				

Q.No:4. Write the names of the birds and animals. 5

Q.No:5. Write the names of the fruits and evgetables. 5

Q.No:6. Write the names of the days of the week. 10

Q.No:7. Look at the picture and tick the correct option 5

Teacher ○
Doctor ○

Engineer ○
Nurse ○

Teacher ○
Pilot ○

Engineer ○
Doctor ○

Carpenter ○
Teacher ○

Foundation Series | *3rd Term* | *Calculative* **Maths** | **Prep** | *Time : 2:00 Hours*

Student's Name: _____ Roll No: _____

School Name: _____

نوٹ: سوالات پرچے میں دی گئی جگہ پر ہی حل کریں۔اضافی کاپی ہرگز مہیا نہیں کی جائے گی۔معروضی میں کاٹ کر یا مٹا کر لکھے گئے جوابات غلط تصور ہوں گے۔

Total Marks	Obtained Marks	Grade	Remarks	Examiner Sign
50				

Q.No:1.Oral. 10

Q.No:2. Write counting "51" to "100". 15

Q.No:3. Add the following. 5

2 + 2 =	6 + 4 =	7 + 1 =	4 + 3 =	3 + 2 =

Q.No:4. Subtract the following. 5

8 − 6 =	6 − 5 =	5 − 1 =	9 − 1 =	4 − 2 =

Q.No:5. Write the given numbers in ascending order. 5

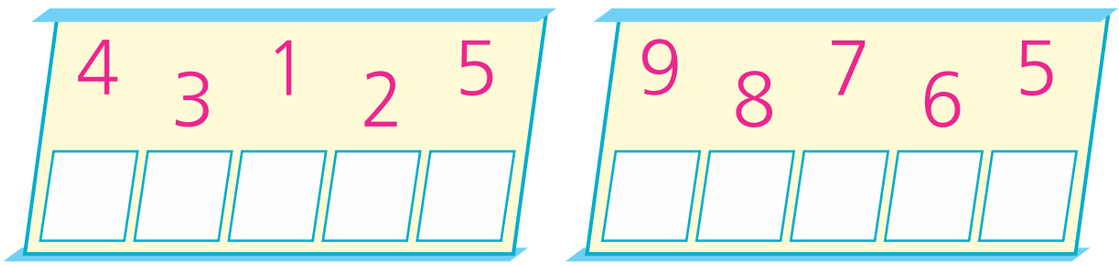

Q.No:6. Write the given numbers in descending order. 5

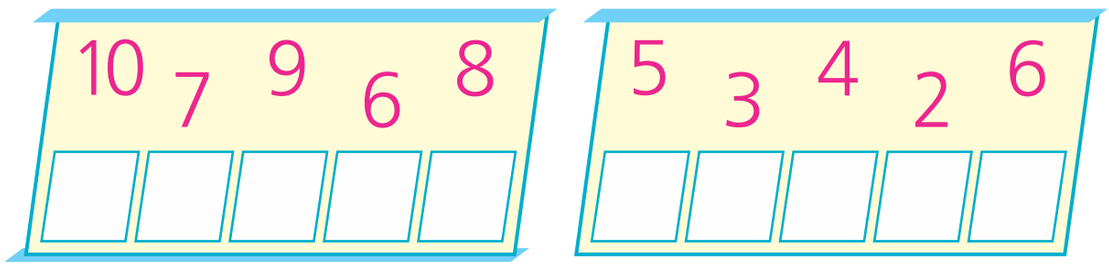

Q.No:7. Write the names of the months 5

Foundation Series | *3rd Term* | **Computer** | **Prep** | *Time : 2:00 Hours*

Student's Name: _____ Roll No: _____

School Name: _____

نوٹ: سوالات پرچے میں دی گئی جگہ پر ہی حل کریں۔اضافی کاپی ہرگز مہیا نہیں کی جائے گی۔معروضی میں کاٹ کر یا مٹا کر لکھے گئے ہوئے جوابات غلط تصور ہوں گے۔

Total Marks	Obtained Marks	Grade	Remarks	Examiner Sign
50				

Q.No:1.Oral. 10

Q.No:2. Tick (✓) the storage devices. 10

Q.No:3. Match the computer with their names. 10

Mainframe Computer

Notebook Computer

Super Computer

Personal Computer

Q.No:4. Write the name of devices. 10

Q.No:5. Find the names of given computer components and then circle them. 10

A	A	M	C	O	R	W	C	I	C	P	U
M	O	N	I	T	O	R	R	O	T	I	N
L	N	J	S	T	R	U	V	E	F	Q	R
U	X	Z	P	R	M	O	U	S	E	F	J
S	Q	T	L	O	W	G	A	C	I	U	I
A	H	J	P	P	R	I	N	T	E	R	M
C	S	N	T	R	I	V	T	N	E	R	R
E	T	T	S	C	A	N	N	E	R	T	A
K	K	E	Y	B	O	A	R	D	K	U	N

Foundation Series | جماعت اول | اسلامیات | ششماہی ٹرم | Time : 2:00 Hours

نام طالب علم: ..... رول نمبر: .....

نام اسکول: .....

نوٹ: سوالات پرچے میں دی گئی جگہ پر ہی حل کریں۔ اضافی کاپی ہرگز مہیا نہیں کی جائے گی۔ حصہ معروضی میں کاٹ کر یا مٹا کر لکھے گئے جوابات غلط تصور ہوں گے۔

کل نمبر	حاصل کردہ نمبر	گریڈ	نتیجہ	دستخط ممتحن
50				

{حصہ معروضی}

سوال:1 سورۃ الفاتحہ اور سورۃ الاخلاص زبانی سنائیں۔ 10

سوال:2 خالی جگہ پُر کریں۔ 5

1۔ دنیا میں سب سے قریبی رشتہ ..... سے ہوتا ہے۔

2۔ نبی کریم ﷺ نے فرمایا ''جنت ماں کے ..... تلے ہے۔''

3۔ اللہ تعالیٰ ..... رہنے والے کو پسند فرماتا ہے۔

4۔ ہمیں اپنا جسم ..... رکھنا چاہیے۔

5۔ ..... ہمیں صاف ستھرا رہنے کی تلقین کرتا ہے۔

سوال:3 درست جواب کا انتخاب کریں اور (✓) نشان لگائیں۔ 5

1۔ نبی کریم ﷺ نے ایمان کا حصہ کسے قرار دیا ہے؟

(ا) انصاف کو (ب) صفائی کو (ج) علم حاصل کرنے کو

2۔ صاف رہنے سے اچھی ہو جاتی ہے۔

(ا) پڑھائی (ب) کمائی (ج) صحت

3۔ دنیا میں سب قریبی رشتہ ہوتا ہے:

(ا) ماں باپ سے (ب) بہن بھائیوں سے (ج) اساتذہ سے

4۔ اساتذہ ہمیں بتاتے ہیں:

(ا) عقل کی بات (ب) سمجھ کی بات (ج) عقل اور سمجھ کی بات

5۔ انسان پر اللہ تعالیٰ کے بعد سب سے زیادہ احسان ہوتا ہے:

(ا) ہمسائیوں کا (ب) رشتے داروں کا (ج) ماں باپ کا

سوال:4 درج ذیل کا ترجمہ خوش خط لکھیں۔ 10

رَبِّ زِدْنِیْ عِلْمًا

_____

اَللّٰھُمَّ بَارِکْ لَنَا فِیْہِ وَ زِدْنَا مِنْہُ

_____

{حصہ انشائیہ}

نوٹ: مندرجہ ذیل میں سے کوئی سے پانچ سوالات کے جواب لکھیں۔ 20

سوال نمبر 1: دعا کے کیا معنی ہیں؟

جواب: .....

.....

سوال نمبر 2: کیا ہمیں اللہ تعالیٰ سے دعا مانگنی چاہیے؟

جواب: .....

.....

سوال نمبر 3: ہمیں اپنی ذاتی صفائی کا کیسے خیال رکھنا چاہیے؟

جواب: .....

.....

سوال نمبر 4: نبی کریم ﷺ نے صفائی کے بارے میں کیا ارشاد فرمایا؟

جواب: .....

.....

سوال نمبر 5: دو بڑے گناہ کون کون سے ہیں؟

جواب: .....

.....

سوال نمبر 6: اسلام میں استاد کا درجہ کیا ہے؟

جواب: .....

.....

سوال نمبر 7: رسول اللہ ﷺ کا ماں باپ کے حقوق کے بارے میں کیا فرمان ہے؟

جواب: .....

.....

Foundation Series | جماعت اول | اردو | تھرڈ ٹرم | Time : 2:00 Hours

نام طالب علم:..... رول نمبر:.....

نام اسکول:.....

نوٹ: سوالات پرچے میں دی گئی جگہ پر ہی حل کریں۔ اضافی کاپی ہرگز مہیا نہیں کی جائے گی۔ حصہ معروضی میں کاٹ کر یا مٹا کر لکھے گئے جوابات غلط تصور ہوں گے۔

کل نمبر	حاصل کردہ نمبر	گریڈ	نتیجہ	دستخط ممتحن
50				

{حصہ معروضی}

سوال:1 خالی جگہیں پر کریں۔ 5

1۔ محمد سرور شہید.....میں پاکستانی فوج میں شامل ہو گئے۔

2۔ بادشاہ جب جنگل میں گیا تو وہاں ایک اور.....غمزدہ بیٹھا ملا۔

3۔ کچھ.....سے اور کچھ کالے۔

4۔ زیبرا کراسنگ.....کرنے والوں کے لیے بنائی جاتی ہے۔

5۔ جب.....بتی جل رہی ہو تو ہمیں رک جانا چاہیے۔

سوال:2 دیئے گئے واحد کو جمع سے ملائیں۔ 5

سڑک	مقاصد
بتی	اسکولوں
مقصد	سڑکیں
اسکول	حادثے
حادثہ	بتیاں

سوال:3 مندرجہ ذیل الفاظ کے جملے بنائیں۔ 10

	الفاظ	جملے
1	لائنیں	
2	سوال کرنا	
3	رُک جانا	
4	مقصد	
5	منع کرنا	

سوال:4 مندرجہ ذیل جوڑ کے توڑ لکھیں۔

5

1۔ کچھ _____ 2۔ ہلکے _____ 2۔ کالے _____

3۔ برسی _____ 5۔ ٹھنڈک _____

{حصہ انشائیہ}

سوال:5 الفاظ کے معنی لکھیں۔ 5

الفاظ	معنی	الفاظ	معنی
خزانہ	_____	کمائی	_____
چین	_____	ناحق	_____
جانب	_____		

سوال:6 مندرجہ ذیل میں سے پانچ (5) سوالات کے جواب لکھیں۔ 10

1۔ ورزش کرنے کے لیے سب سے اچھا وقت کون سا ہے؟ .....

2۔ صبح کی سیر اور ورزش کا آپس میں کیا تعلق ہے؟ .....

3۔ محمد سرور شہید پاک فوج میں کب شامل ہوئے؟ .....

4۔ کیپٹن محمد سرور شہید کو کون سا فوجی اعزاز دیا گیا؟ .....

5۔ مظلوم کی بددعا کا علاج کیا ہے؟ .....

6۔ ہر شے کو پانی پانی کس نے کر دیا ہے؟ .....

7۔ کس رنگ کی بتی جلنے پر ہمیں چلنا چاہیے؟ .....

سوال:7 مثبت جملہ کی تعریف لکھیں اور مثالیں دیں۔ 5

_____

_____

_____

سوال:8 مندرجہ ذیل جملے سوالیہ جملوں میں تبدیل کریں۔ 5

	مثبت جملے	سوالیہ جملے
	آج موسم بہت گرم ہے۔	
	وہ ایک اچھا لڑکا ہے۔	
	وہ روز ناشتہ کرتا ہے۔	
	یہ اس کی کتاب ہے۔	
	یہ ایک پرندہ ہے۔	

Foundation Series | 3rd Term | Ideal English | CLASS ONE | Time : 2:00 Hours

Name:_____ Roll No: _____

School:_____

نوٹ: سوالات پرچے میں دی گئی جگہ پر ہی حل کریں۔ اضافی کاپی ہرگز مہیا نہیں کی جائے گی۔ معروضی میں کاٹ کر یا مٹا کر لکھے گئے جوابات غلط تصور ہوں گے۔

Total Marks	Obtained Marks	Grade	Remarks	Examiner's Sign
50				

{Objective Type}

Q. No. 1: Fill in the blanks with "There is" or "There are". **10**

i. _____ parrots in the tree.

ii. _____ an apple in the plate.

iii. _____ mangoes in the basket.

iv. _____ a puppy under the table.

v. _____ cat on the table.

Q. No. 2: Tick (✓) the correct answer. **5**

1. Have I pencil? Yes, you have. ☐ No, you have not. ☐		**2.** Have you a basket? Yes, I have. ☐ No, I have not. ☐	
3. Have we ballons? Yes, You have. ☐ No, you have not. ☐		**3.** Have they flags? Yes, they have. ☐ No, they have not. ☐	
3. Has Ali a bicycle? Yes, he has. ☐ No, he has not. ☐			

Q. No. 3: Look at the pictures and fill in the blanks with "my" or "your". **10**

This is _____ ball.

These are _____ books.

These are _____ pencils.

These are _____ erasers.

_____ Ball is big

Q. No. 4: Answer these questions. **10**

1. Where is the computer?

_____

2. Where is the pencile?



_____

3. Where are the parrots?

_____

4. Where is the hen?

_____

5. Where are the eggs?

_____

Q. No. 5: Write "Has" or "Have" to fill in the blanks. **5**

i. I _____ two books.

ii. She _____ no books.

iii. They _____ many toys.

iv. She _____ a ring.

v. He _____ a bag

Q. No. 6: Write an essay on "A computer". **10**

.....

.....

.....

.....

.....

.....

.....

Foundation Series | 3rd Term | Exploring Science | CLASS ONE | Time : 2:00 Hours

Name:_____ Roll No: _____

School:_____

نوٹ: سوالات پرچے میں دی گئی جگہ پر ہی حل کریں۔اضافی کاپی ہرگز مہیا نہیں کی جائے گی۔معروضی میں کاٹ کر یا مٹا کر لکھے گئے جوابات غلط تصور ہوں گے۔

Total Marks	Obtained Marks	Grade	Remarks	Examiner's Sign
50				

{Objective Type}

Q. No. 1: Fill in the blanks: **5**

1. The _____ is a star.
2. We see _____ shapes of the moon at different times.
3. Children should drink ..... everyday.
4. We have ..... sense.
5. Our body parts ..... us in our work.

Q. No. 2: Tick (✓) the correct option. **10**

1. We need _____ to do work.
2. We get oil from _____.
3. The sun is a source of _____.
4. Sound is also form of _____.
5. Wind energy is used by _____ fan.

car	energy
Earth	Sun
Wind energy	solar energy
work	energy
windmill	fan

Q. No. 3: Match the column. **5**

Column A	Column B
	Stars
	Sun
	Earth
	Moon

{Subjective Type}

Note: Answer the following questions. **30**

1. What is the sun?

2. Where does the sun rise and set in?

3. Why do we use food?

4. What should we do before drinking the water?

5. From where does the Moon get its light?

6. How do we taste?

7. Who makes a web?

Foundation Series | 3rd Term | **Social Studies** | CLASS ONE | Time : 2:00 Hours

Name:_____ Roll No: _____

School:_____

نوٹ: سوالات پرچے میں دی گئی جگہ پر ہی حل کریں۔اضافی کاپی ہرگز مہیا نہیں کی جائے گی۔معروضی میں کاٹ کر یا مٹا کر لکھے گئے جوابات غلط تصور ہوں گے۔

Total Marks	Obtained Marks	Grade	Remarks	Examiner's Sign
50				

{Objective Type}

Q. No. 1: Fill in the blanks: **5**

1. The Earth is _____ home.
2. Their homes are of _____ shapes.
3. The earth is made up of _____ and water.
4. Some food is _____ from animal like meat.
5. In _____ , we wear thick clothes.

Q. No. 2: Tick (✓) the true and cross (×) the false statements. **5**

1. Sky is our home. ☐
2. The Earth is not made up of land and water. ☐
3. Zoo has made animals also. ☐
4. Bicycles and motorcycles have two wheels. ☐
5. Deserts are the barren parts of Earth. ☐

Q. No. 3: Tick (✓) the correct option. **10**

i.	**Water drops from the sky.**	rainy	misty
ii.	**Thunder and lightning in the sky.**	stormy	foggy
iii.	**Snow falls from the sky.**	snowy	windy
iv.	**Thick clouds rise from the water.**	windy	misty
v.	**Sky is covered with clouds.**	sunny	cloudy

Q. No. 4: Write the animals names. **5**

_____

_____

_____

_____

_____

{Subjective Type}

Q.No. 5: Note: Answer the following questions. (any five) 25

1. Who has made animals?

2. Which food we get from animals?

3. How many kinds are there of animals?

4. Which living things can survive in deserts?

5. Write the name of some beautiful animals?

6. Name the vehicles which have four wheels.

7. What is Eid?

Foundation Series | 3rd Term | **Computer** | CLASS ONE | Time : 2:00 Hours

Name:_____ Roll No: _____

School:_____

نوٹ: سوالات پرچے میں دی گئی جگہ پر ہی حل کریں۔اضافی کاپی ہرگز مہیا نہیں کی جائے گی۔معروضی میں کاٹ کر یا مٹا کر لکھے گئے جوابات غلط تصور ہوں گے۔

Total Marks	Obtained Marks	Grade	Remarks	Examiner's Sign
50				

{Objective Type}

Q. No. 1: Fill in the blanks: **10**

1. There are _____ important input devices.
2. Cursor is also called _____ .
3. A mouse is a _____ device.
4. Monochrome display text, images and graphics in _____ colour.
5. Clock is located in the _____.

Q. No. 2: Match the columns. **5**

Column A	Column B
Monitor	displays text
Speaker	physical copy
Printer	music
Portable Media Player	listen songs.

Q. No. 3: Draw the different shapes of cursor. **5**

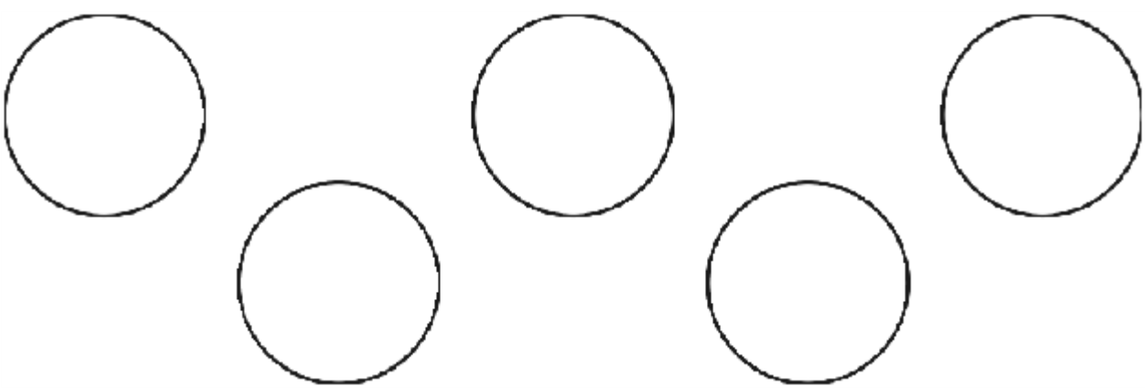

Subjective Type}

Q. No. 4: Note: Answer the following questions. **30**

1. Where is "Start" button located?

2. What is meant by input devices?

3. What do you meant by desktop?

4. Define microphone.

5. Write the uses of scanner.

6. Define Data

7. What do you know about operating system?

Foundation Series | جماعت دوم | اسلامیات | تھرڈ ٹرم | Time : 2:00 Hours

نام طالب علم: ..... رول نمبر: .....

نام اسکول: .....

نوٹ: سوالات پرچے میں دی گئی جگہ پر ہی حل کریں۔ اضافی کاپی ہرگز مہیا نہیں کی جائے گی۔ حصہ معروضی میں کاٹ کر یا مٹا کر لکھے گئے جوابات غلط تصور ہوں گے۔

کل نمبر	حاصل کردہ نمبر	گریڈ	نتیجہ	دستخط ممتحن
50				

{حصہ معروضی}

سوال 1: دوسرا کلمہ اور سورۃ کوثر زبانی سنائیں۔ 10

سوال 2: خالی جگہ پُر کریں۔ 5

1۔ صفائی کا مطلب جسم .....اور اردگرد کا ماحول صاف ہونا ہے۔

2۔ نبی کریم ﷺ جمعۃ المبارک سے پہلے .....فرماتے۔

3۔ کھانا کھانے سے پہلے .....دھونے چاہییں۔

4۔ قرآن کریم بہت ..... والی کتاب ہے۔

5۔ قرآن کریم کی تلاوت سے پہلے .....پڑھیں۔

سوال 3: درست جواب کا انتخاب کریں اور (✓) نشان لگائیں۔ 5

1۔ پانی ختم کرنا چاہیے:

(ا) ایک سانس میں (ب) دو سانسوں میں (ج) تین سانسوں میں

2۔ صفائی ایمان ہے:

(ا) پورا (ب) تھوڑا سا (ج) نصف

3۔ پانی پینا چاہیے:

(ا) کھڑے ہو کر (ب) لیٹ کر (ج) بیٹھ کر

4۔ خندق کی کھدائی کے دوران میں ایک جگہ ایسا بھاری پتھر جو صحابہؓ سے .....نہیں رہا تھا۔

(ا) ٹوٹ (ب) پل (ج) نکل

5۔ لقمہ لینا چاہیے:

(ا) بڑا (ب) چھوٹا (ج) بہت بڑا

سوال 4: صفائی کے فائدے لکھیں؟ 10

_____

_____

_____

_____

_____

{حصہ انشائیہ}

نوٹ: مندرجہ ذیل میں سے کوئی سے پانچ سوالات کے جواب لکھیں۔ 20

سوال نمبر 1: صفائی کا مطلب کیا ہے؟

جواب: .....

.....

سوال نمبر 2: اسلام مسلمانوں کو کس چیز کا درس دیتا ہے؟

جواب: .....

.....

سوال نمبر 3: بیت اللہ کہاں واقع ہے؟

جواب: .....

.....

سوال نمبر 4: کھانے پینے کے بعد کیا کرنا چاہیے؟

جواب: .....

.....

سوال نمبر 5: دنیا میں ہر مسجد کا رخ کس طرف رکھا جاتا ہے؟

جواب: .....

.....

سوال نمبر 6: جب مسلمانوں نے مکہ مکرمہ سے مدینہ منورہ ہجرت کی تو تعمیر شروع ہوئی:

جواب: .....

.....

سوال نمبر 7: ایمان کا مطلب کیا ہے؟

جواب: .....

.....

Foundation Series | جماعت دوم | اردو | تھرڈ ٹرم | Time : 2:00 Hours

نام طالب علم: ..... رول نمبر: .....

نام اسکول: .....

نوٹ: سوالات پرچے میں دی گئی جگہ پر ہی حل کریں۔ اضافی کاپی ہرگز مہیا نہیں کی جائے گی۔ حصہ معروضی میں کاٹ کر یا مٹا کر لکھے گئے جوابات غلط تصور ہوں گے۔

کل نمبر	حاصل کردہ نمبر	گریڈ	نتیجہ	دستخط ممتحن
50				

{حصہ معروضی}

سوال 1: خالی جگہیں پر کریں۔ 5

1۔ سب سے پہلے نادیہ اور احسن نے ..... دیکھے۔

2۔ ایک تاجر کسی ..... سے گزر رہا تھا۔

3۔ اے نیک دل شخص! کیا تم بہت ..... ہوا۔

4۔ کام سے میں ..... ہی نہیں

5۔ شفقت کے سب سے زیادہ _____ یتیم بچے ہوتے ہیں۔

سوال 2: دیے گئے الفاظ کے معانی لکھیں اور جملے بنائیں۔ 10

الفاظ	معانی	جملے
سیر		
شرارت		
پنجرہ		
رَس		
معلومات		

سوال 3: دیے گئے مذکر کے مؤنث لکھیں۔ 5

مذکر	مؤنث
بندر	
شیر	
ہاتھی	
سانپ	
طوطا	

{حصہ انشائیہ}

سوال4: دیے گئے جملے پڑھیں اور بتائیں کہ یہ جملہ منفی ہے، سوالیہ ہے یا مثبت؟ 5

i۔ یہاں گندگی نہیں ہے۔ .....

ii۔ ہم روزانہ اسکول جاتے ہیں۔ .....

iii۔ سچ بولنا اچھی بات ہے۔ .....

iv۔ بچے جھولا نہیں جھول رہے ہیں۔ .....

v۔ کیا ہم وقت کی پابندی کرتے ہیں۔ .....

سوال5: دیے گئے الفاظ ان کے مترادف الفاظ سے ملائیں۔ 5

الفاظ	مترادف الفاظ
عہد	فقیر
گدا	آسمان
راہ	وعدہ
چین	راستا
فلک	آرام

سوال6: مندرجہ ذیل میں سے پانچ (5) سوالات کے جواب لکھیں۔ 15

1۔ ساری دنیا کس نے بنائی ہے؟ .....

2۔ چیونٹی کس چیز سے نہیں تھکتی ہے؟ .....

3۔ آدھی چھٹی کے وقت سعد کیا کرتا ہے؟ .....

4۔ نظم کے مطابق رات آئی تو کیا جاگے ہیں؟ .....

5۔ بزرگ نے تاجر کو بھکاری کیوں کہا؟ .....

6۔ چڑیا گھر کی سیر سے نادیہ اور احسن کو کیا فائدہ ہوا؟ .....

7۔ حضرت عمر فاروق خلیفہ کب چنے گئے؟ .....

سوال7: مضمون لکھیں: ''میرا وطن'' 5

Foundation Series | 3rd Term | Ideal English | CLASS TWO | Time : 2:00 Hours

Name:_____ Roll No: _____

School:_____

نوٹ: سوالات پرچے میں دی گئی جگہ پر ہی حل کریں۔ اضافی کاپی ہرگز مہیا نہیں کی جائے گی۔ معروضی میں کاٹ کر یا مٹا کر لکھے گئے جوابات غلط تصور ہوں گے۔

Total Marks	Obtained Marks	Grade	Remarks	Examiner's Sign
50				

{Objective Type}

Q. No. 1: Fill in the blanks with "Has" or "Have". **5**

i. _____ she ironed clothes?

ii. _____ the teacher came in the class?

iii. _____ the shopkeeper opened the shop?

iv. _____ the teacher come in the class?

v. _____ the students finished writing?

Q. No. 2: Change the following sentence into negative. **10**

i. She has a sweater. _____

ii. She is a teacher. _____

iii. Tahir is sad. _____

iv. Nasir is a player. _____

v. I am honest. _____

vi. You are clever. _____

vii. He is truthful. _____

viii. He is student. _____

ix. It is a dog. _____

x. He was a pious. _____

Q. No. 3: Fill in the blanks with appropriate adverbs!
always, never, usually and sometimes. **10**

i. The Sun _____ sets in the west.

ii. It _____ sets in the East.

iii. A ripe mango is _____ sweet.

iv. _____ it is sour.

v. Good children _____ speak thetruth.

{Subjective Type}

Q. No. 4: Tick the correct answer. **5**

i.	Have you prefared the lesson?	Yes, you have.	Yes, I have.
ii.	Has she stood first?	Yes, she have.	Yes, he has.
iii.	Have we reached late?	No, they have not.	No we have not.
iv.	Has the rain stoped?	Yes, it was.	Yes, they have.
v.	Have they locked the door?	Yes, we have.	Yes, they have.

Q. No. 5: Write an easy on " My Book". **10**

_____

_____

_____

_____

_____

_____

_____

_____

Q. No. 6: Write the correct words (was, were) in the blanks. **10**

i.	I _____ a pop singer.	ii.	We _____ not lazy.
iii.	You _____ a naughty boy.	iv.	They _____ shopkeepers.
v.	He _____ a teacher.	vi.	She _____ a doctor.
vii.	Ali _____ a young boy.	viii.	I _____ a student.
xi.	It _____ wooden table.	x.	Sara _____ an air hostess.

Foundation Series | 3rd Term | Exploring Science | CLASS TWO | Time : 2:00 Hours

Name:_____ Roll No: _____

School:_____

نوٹ: سوالات پرچے میں دی گئی جگہ پر ہی حل کریں۔اضافی کاپی ہرگز مہیا نہیں کی جائے گی۔معروضی میں کاٹ کر یا مٹا کر لکھے گئے جوابات غلط تصور ہوں گے۔

Total Marks	Obtained Marks	Grade	Remarks	Examiner's Sign
50				

{Objective Type}

Q. No. 1: Fill in the blanks: **10**

1. We live on the _____.
2. Lions, eagles, sharks and cats, etc kill other animals for _____.
3. The outer shell of the earth is called _____.
4. Bones give _____ and _____ to our body.
5. Core can be devided into _____ layer.
6. Giraffe, deer, horse, rabbit and cow, eat _____.
7. Crust is made up of _____ types of rocks.
8. Electricity is produce in _____
9. _____ are attached with the bones.
10. We can lit bulb with the help of _____.

Q. No. 2: Tick (✓) the correct statement and cross (×) the wrong statement. 10

1. Electricity is a form of energy. ☐
2. Electricity is not important to us. ☐
3. We should take very much food in our plate. ☐
4. A computer can be run without electricity. ☐
5. We should eat uncovered food sold by hawkers. ☐
6. Living things can not move at their own. ☐
7. Gold is a liquid. ☐
8. Iron is a solid thing. ☐
9. The movement of a child on slid is in a straight line. ☐
10. Solid are always soft. ☐

{Subjective Type}

Note: Answer the following questions. **30**

1. What is the shape of the earth?

2. What is curst?

3. What food should we use to grow?

4. Write the names of some foods which give us energy?

5. Which minerals are found in the core?

6. Name four animals that eat both plants and animals.

7. How are our bones and muscles useful for us?

Foundation Series | 3rd Term | **Social Studies** | CLASS TWO | Time : 2:00 Hours

Name:_____ Roll No: _____

School:_____

نوٹ: سوالات پرچے میں دی گئی جگہ پر ہی حل کریں۔اضافی کاپی ہرگز مہیا نہیں کی جائے گی۔معروضی میں کاٹ کر یا مٹا کر لکھے گئے جوابات غلط تصور ہوں گے۔

Total Marks	Obtained Marks	Grade	Remarks	Examiner's Sign
50				

{Objective Type}

Q. No. 1: Fill in the blanks: **5**

1. Means of communication are highly _____ in our life.
2. Radio _____ programmes for its station.
3. Television has a _____ to show what is happening.
4. Minar-e-Pakistan is a great _____ monument.
5. Use _____ for walking.

Q.2 No: Tick (✓) the true and cross (×) the false statements. **10**

1. We do different activities. ☐
2. Always abide by the traffic rules. ☐
3. Thousands of people daily visit to see this historical place daily. ☐
4. Height of Minar-e-Pakistan is 196 ft. ☐
5. We should touch the electric wires. ☐
6. English is our National Language. ☐
7. Urdu is our mother tongue. ☐
8. We should not use footpath for walking. ☐
9. Allama Iqbal was the first poet of Urdu language. ☐
10. Urdu became the National Language of Pakistan in 1973. ☐

Q.3 No: Match the columns. **5**

Column A	Column B
Means of communication	News
Newspaper	news, music, dramas
Fax	highly important
Radio broadcasts	wonderful machine
Mobile phone	wonderful

{Subjective Type}

Note: Answer the following questions. (any five) **30**

1. What are means of communication?

2. What is the colour of our National Flag?

3. Write down a few lines about newspaper and television.

4. What can result if we violate a traffic rule?

5. From where does the Sun rise?

6. Which called is "the land of saints"?

7. Name four Kharif crops.

Foundation Series | 3rd Term | **Computer** | CLASS TWO | Time : 2:00 Hours

Name:_____ Roll No: _____

School:_____

نوٹ: سوالات پرچے میں دی گئی جگہ پر ہی حل کریں۔اضافی کاپی ہرگز مہیا نہیں کی جائے گی۔معروضی میں کاٹ کر یا مٹا کر لکھے گئے جوابات غلط تصور ہوں گے۔

Total Marks	Obtained Marks	Grade	Remarks	Examiner's Sign
50				

{Objective Type}

Q. No. 1: Fill in the blanks: **(5)**

1. Keyboard is an _____ device.
2. Keyboard consists of _____ buttons.
3. There are _____ keys of alphabets of English.
4. There are _____ brushes in paint.
5. Navigation keys move the cursor right, _____, up and _____.

Q. No. 2: Write the full form of following. **(5)**

KB _____

MB _____

GB _____

RAM _____

ROM _____

Q.No. 3: Match the columns: **(10)**

keyboard		punctuation keys
Functional keys		shift
Space bar		tab key
Modifier keys		12
Typing mode keys		Input device

{Subjective Type}

Q. No. 4: Answer the following questions. **10**

1. What is meant by storage media?

2. Explain Functional keys.

3. Define Alphanumeric keys.

4. What do you mean by punctuation keys?

5. Differntiate between ROM and RAM.

6. Write about Windows Media Player.

7. Explain paint?

Foundation Series | جماعت سوم | اسلامیات | تھرڈ ٹرم | Time : 2:00 Hours

نام طالب علم: ..... رول نمبر: .....

نام اسکول: .....

نوٹ: سوالات پرچے میں دی گئی جگہ پر ہی حل کریں۔ اضافی کاپی ہرگز مہیا نہیں کی جائے گی۔ حصہ معروضی میں کاٹ کر یا مٹا کر لکھے گئے جوابات غلط تصور ہوں گے۔

کل نمبر	حاصل کردہ نمبر	گریڈ	نتیجہ	دستخط ممتحن
50				

{حصہ معروضی}

سوال 1: سورۃ الاخلاص زبانی سنائیں۔ 10

سوال 2: خالی جگہ پُر کریں۔ 5

1۔ تمام رسول اللہ تعالیٰ کی ..... کی تعلیم دیتے تھے۔

2۔ پیارے نبی ساری زندگی ..... اسلام کی تبلیغ کرتے رہے۔

3۔ صدقہ کرنے سے اللہ تعالیٰ ..... سے بہت خوش ہوتا ہے۔

4۔ سچی بات چھپانا ..... کہلاتا ہے۔

5۔ رشتے داروں کے ساتھ بُرا سلوک کرنے والا ..... میں داخل نہیں ہو سکے گا۔

سوال 3: درست جواب کا انتخاب کریں اور (✓) نشان لگائیں۔ 5

1۔ کسی شخص کی چیز اس کی اجازت کے بغیر اٹھا کر چھپا لینا کہلاتا ہے:

(ا) جھوٹ (ب) چوری (ج) غیبت

2۔ غیبت کرنا خصلت ہے:

(ا) بہت بُری (ب) اچھی (ج) نیک

3۔ اللہ تعالیٰ نے انسانوں کی ہدایت کے لیے دنیا میں بھیجے:

(ا) جنات (ب) فرشتے (ج) رسول

4۔ حقوق العباد میں حقوق شامل ہیں:

(ا) اللہ تعالیٰ کے (ب) رشتہ داروں کے (ج) فرشتوں کے

5۔ بہترین انسان وہ ہے جو دوسروں کے لیے زیادہ ہو:

(ا) ہمدرد (ب) فائدہ مند (ج) نقصان دہ

سوال 4: دوسروں کی چیزیں اجازت سے استعمال کرنے پر چند سطریں تحریر کریں۔ 10

_____

_____

_____

_____

_____

{حصہ انشائیہ}

نوٹ: مندرجہ ذیل میں سے کوئی سے پانچ سوالات کے جواب لکھیں۔ 20

سوال نمبر 1: چوری سے کیا مراد ہے؟

جواب: .....

.....

.....

سوال نمبر 2: غیبت کسے کہتے ہیں؟

جواب: .....

.....

.....

سوال نمبر 3: جھوٹ بولنے والے کے متعلق اللہ تعالیٰ کا کیا ارشاد ہے؟

جواب: .....

.....

.....

سوال نمبر 4: آپ ﷺ نے اچھے انسان کی کیا نشانی بتائی؟

جواب: .....

.....

.....

سوال نمبر 5: ہمیں گفتگو کس طرح شروع کرنی چاہیے؟

جواب: .....

.....

.....

سوال نمبر 6: اللہ تعالیٰ نے دنیا میں رسول کیوں بھیجے؟

جواب: .....

.....

.....

سوال نمبر 7: قرآن مجید میں علامتیں کیوں مقرر کی گئی ہیں؟

جواب: .....

.....

.....

Foundation Series | جماعت سوم | اردو | تھرڈ ٹرم | Time : 2:00 Hours

نام طالب علم: ..... رول نمبر: .....

نام اسکول: .....

نوٹ: سوالات پرچے میں دی گئی جگہ پر ہی حل کریں۔ اضافی کاپی ہرگز مہیا نہیں کی جائے گی۔ حصہ معروضی میں کاٹ کر یا مٹا کر لکھے گئے جوابات غلط تصور ہوں گے۔

کل نمبر	حاصل کردہ نمبر	گریڈ	نتیجہ	دستخط ممتحن
50				

{حصہ معروضی}

سوال 1: خالی جگہیں پر کریں۔ 5

1۔ درختوں سے مسافروں کو.....ملتی ہے۔

2۔ 5فروری کو یوم یک جہتی.....منایا جاتا ہے۔

3۔ وہ دیکھو اُٹھی.....کالی گھٹا

4۔ روزی کمانے کے لیے ہر.....کو کوئی نہ کوئی کام کرنا پڑتا ہے۔

5۔ دوسری دفعہ تیر کمان میں لگایا تو پھر نشانہ.....گیا۔

سوال 2: دیے گئے واحد کے جمع لکھیں۔ 5

واحد	جمع
طرف	
ہوا	
جانور	
کسان	
جنگل	

سوال 3: کالم ''الف'' کو کالم ''ب'' سے ملائیں۔ 5

کالم ''الف''	کالم ''ب''
5فروری	یوم ولادت نبی ﷺ
14اگست	عیدالاضحیٰ
10محرم	شہادتِ امام حسین رضی اللہ عنہ
12ربیع الاول	یوم یک جہتی کشمیر
10ذی الحج	یومِ آزادی

سوال 4: دیے گئے الفاظ کے متضاد لکھیں۔ 5

الفاظ	متضاد
خاص	
دن	
خوشی	
ظاہر	
پیدائش	

{حصہ انشائیہ}

سوال5: مندرجہ ذیل میں سے پانچ (5) سوالات کے جواب لکھیں۔ 15

1۔ ہم درختوں کی لکڑی سے کیا کیا اشیا بناتے ہیں؟ .....

2۔ چند اہم غذائی پیداوار کے نام لکھیں۔ .....

3۔ سرکاری تعطیلات سے کیا مراد ہے؟ .....

4۔ ۲۳ مارچ کی کیا اہمیت ہے؟ .....

5۔ عیدالفطر اور عیدالاضحیٰ کب منائی جاتی ہے؟ .....

6۔ بارش کے بعد زمین سے کیا نکل آیا؟ .....

7۔ آبادی سے کیا مراد ہے؟ .....

سوال6: ذیل کے جملوں کی خالی جگہوں میں خط کشیدہ لفظ کا الٹ لفظ لگا کر جملے مکمل کریں۔ 5

1. ہمیں ہر چھوٹے اور..... کا احترام کرنا چاہیے۔ بڑے، بوڑھے

2. دوست اور..... میں فرق کرنا بہت ضروری ہے۔ دشمن، یار

3. دعوت میں غریب..... سبھی شریک تھے۔ غربا، امیر

4. جان دار اور..... سبھی کو اللہ تعالیٰ نے بنایا ہے۔ جانور، بے جان

5. کسی بھی خوشی..... میں اللہ کو نہیں بھولنا چاہیے۔ غمی، افسوس

سوال7: مضمون یا کہانی لکھیں۔ ''عقل مندی'' یا ''علامہ محمد اقبالؒ'' 10

Foundation Series | 3rd Term | Ideal English | CLASS THREE | Time : 2:00 Hours

Name:_____ Roll No: _____

School:_____

نوٹ: سوالات پرچے میں دی گئی جگہ پر ہی حل کریں۔ اضافی کاپی ہرگز مہیا نہیں کی جائے گی۔ معروضی میں کاٹ کر یا مٹا کر لکھے گئے جوابات غلط تصور ہوں گے۔

Total Marks	Obtained Marks	Grade	Remarks	Examiner's Sign
50				

{Objective Type}

Q. No. 1: Fill in the blanks ! **5**

i. Please _____ me some books.

ii. Are they working _____ playing?

iii. Aslam, Naveed _____ Qasim are friends.

iv. Work hard _____ you will fail.

v. He is sick _____ he cannot come to school today.

Q. No. 2: Tick (✓) the correct option. **5**

i.	Yes, I	do	☐	does	☐
ii.	No, he	don't	☐	doesn't	☐
iii.	Yes, he	has	☐	have	☐
iv.	Yes, they	have	☐	has	☐
v.	No, I	don't	☐	doesn't	☐

Q. No. 3: Make sentences. **10**

Words	Sentences
price	
sell	
Mistake	
welcome	
rupees	

{Subjective Type}

Q. No. 4: Answer these questions! **15**

i. What does the shopkeeper ask to customer?

ii. Which type of book does the customer want to buy?

iii. What time do you get up?

iv. How many story books do you have?

v. Which names of the flowers are mentioned in this poem?

Q. No 5: Translate into English: **5**

..... لڑنا ..... روکنا

..... دھونا ..... شروع کرنا

..... بیٹھنا

Q. No. 6: Write an eassy or a story on: **10**

"My School" or "A Strange Hen"

Name:_____ Roll No: _____

School:_____

نوٹ: سوالات پرچے میں دی گئی جگہ پر ہی حل کریں۔اضافی کاپی ہرگز مہیا نہیں کی جائے گی۔معروضی میں کاٹ کر یا مٹا کر لکھے گئے جوابات غلط تصور ہوں گے۔

Total Marks	Obtained Marks	Grade	Remarks	Examiner's Sign
50				

{Objective Type}

Q. No. 1: Fill in the blanks: **10**

1. Book is a _____.
2. Milk is _____.
3. Light travels in a _____ path.
4. The _____ is the biggest source of light.
5. _____ is used as a fuel.
6. Plants give us vegetables and _____.
9. Fish, pulses, meat and cheese are such foods which are necessary for _____.
8. Fast moving air is called _____.
9. Slow moving air is called _____.
10. _____ are made up of tiny drops of water.

Q. No. 2: Tick (✓) the correct statement and cross (×) the wrong statement. 10

1. All magnets do not attract. ☐
2. The magnetic force is strongest in the middle. ☐
3. Everything is solid. ☐
4. We can feel gases. ☐
5. Liquids can flow. ☐
6. We can live without water. ☐
7. Water evaporates all the time. ☐
8. We get rain from clouds. ☐
9. Animals cannot move from one place to another. ☐
10. Some fruits are eaten as vegetables. ☐

{Subjective Type}

Note: Answer the following questions. **30**

1. How do green plants make their food?

2. How do animals and plants depend on each other?

3. How do snakes reproduce?

4. Which part of plant are eaten as food?

5. Define matter?

6. Describe briefly the life cycle of a plant.

7. What are sense organs?

Foundation Series | 3rd Term | **Social Studies** | CLASS THREE | Time : 2:00 Hours

Name:_____ Roll No: _____

School:_____

نوٹ: سوالات پرچے میں دی گئی جگہ پر ہی حل کریں۔اضافی کاپی ہرگز مہیا نہیں کی جائے گی۔معروضی میں کاٹ کر یا مٹا کر لکھے گئے جوابات غلط تصور ہوں گے۔

Total Marks	Obtained Marks	Grade	Remarks	Examiner's Sign
50				

{Objective Type}

Q. No. 1: Fill in the blanks: **5**

1. In our daily life, we _____ many things.
2. A market has many _____.
3. The currency is in the form of _____ and coins.
4. We buy things from _____.
5. Banks gives _____ at your money.

Q. No. 2: Tick (✓) the correct option. **10**

1. We go to shop or market to _____ things.

   (a) show (b) buy (c) see

2. Currancy notes and coins are made by:

   (a) traders (b) skilled persons (c) government

3. We buy things from:

   (a) hospitals (b) schools (c) shops

4. When someone get sick, he/she goes to:

   (a) city (b) abroad (c) hospital

5. The Lahore resolution was passed in:

   (a) 1935 (b) 1940 (c) 1947

Q. No. 3: Match the columns. **5**

Column A	Column B
Lahore Resolution	A.K Fazl-ul-Haq
Resolution was presented by	greater Iqbal Park
Quaid-e-Azam	Resolution was passed
In Minto Park	23rd March 1940
Minar-e-Pakistan is in	Presided over meeting.

{Subjective Type}

Note: Answer the following questions. (any five) **30**

1. Write down the names of some services.

2. Where do you post your letters?

3. What is needed to buy things?

4. Who makes currency notes and coins?

5. What is the flow direction of the River Ravi?

6. What is an industry?

7. Where are atomic power stations located in Pakistan?

Foundation Series | 3rd Term | **Computer** | CLASS THREE | Time : 2:00 Hours

Name:_____ Roll No: _____

School:_____

نوٹ: سوالات پرچے میں دی گئی جگہ پر ہی حل کریں۔اضافی کاپی ہرگز مہیانہیں کی جائے گی۔معروضی میں کاٹ کر یا مٹا کر لکھے گئے جوابات غلط تصور ہوں گے۔

Total Marks	Obtained Marks	Grade	Remarks	Examiner's Sign
50				

{Objective Type}

Q.1 No: Fill in the blanks. **(5)**

i. A motherboard is also called _____.

ii. System unit is like a _____ of computer.

iii. It is like a paper on _____.

iv. Title bar is at the _____ screen.

v. Zoom slider is used to _____.

Q.2 No: Match the columns: **(10)**

1. A videos card is also called _____.

   (a) graphic card (b) Play card (c) sound card (d) game card

2. _____ is reffered as audio and video ports sometimes.

   (a) Serial (b) Parallel (c) Portal (d) Jack

3. Example of serial port is _____ port.

   (a) AMB (b) COM (c) ABC (d) MCO

4. There are _____ bits on byte.

   (a) seven (b) nine (c) eight (d) ten

5. Special purpose port is/are:

   (a) MIDI (b) eSATA (c) Bluetooth (d) All of above

Q.3 No: Tick (✓) for true and cross (×) for false statements. **(5)**

1. There are ten bits in one byte. ☐
2. Example of series port is Com port. ☐
3. FireWire port is not similar to a USB port. ☐
4. MIDI short for Musical Instrument Digital Interface. ☐
5. The size of bus is called bus width. ☐

{Subjective Type}

Q. No. 4: Answer the following questions. **(30)**

1. Explain adapter card?

2. What is meant by Pointing stick?

3. Write a note on FireWire ports?

4. What is bus and how do bits travel in computer?

5. How computer is providing facilities in education sector?

6. How computer is used by Pakistani Government?

7. Define Microsoft Word.

Foundation Series | اسلامیات | جماعت چہارم | تھرڈ ٹرم | Time : 2:00 Hours

نام طالب علم:..... رول نمبر:.....

نام اسکول:.....

نوٹ: سوالات پرچے میں دی گئی جگہ پر ہی حل کریں۔ اضافی کاپی ہرگز مہیا نہیں کی جائے گی۔ حصہ معروضی میں کاٹ کر یا مٹا کر لکھے گئے جوابات غلط تصور ہوں گے۔

کل نمبر	حاصل کردہ نمبر	گریڈ	نتیجہ	دستخط ممتحن
50				

{حصہ معروضی}

سوال 1: سورۃ اللھب مع ترجمہ زبانی سنائیں 10

سوال 2: خالی جگہ پُر کریں۔ 5

1۔ آپ ﷺ نے ہمیشہ.....لباس پہنا

2۔ جس نے میانہ روی اختیار کی وہ.....نہیں ہوگا۔

3۔ .....انسان کے لیے سب سے بڑی دولت ہے۔

4۔ ایک مقام پر پہاڑوں کا فرشتہ حضرت.....کے ساتھ حاضر ہوا۔

5۔ ہمارے نبی ﷺ نے سات آسمانوں کا سفر کیا اس لیے اس سفر کو.....کہا جاتا ہے۔

سوال 3: درست جواب کا انتخاب کریں اور (✓) نشان لگائیں۔ 5

1۔ ہمیں کسی کا کوئی راز معلوم ہو تو ہمیں چاہیے کہ:

(ا) سب کو بتائیں (ب) دوستوں کو بتائیں (ج) کسی کو نہ بتائیں

2۔ اللہ تعالیٰ جنت میں داخل فرمائے گا:

(ا) بے ایمان آدمی کو (ب) ایمان دار آدمی کو (ج) جھوٹے آدمی کو

3۔ ہماری زندگی کے ہر شعبے میں لازمی ہے:

(ا) ملازمت (ب) خیانت (ج) امانت

4۔ کفار مکہ سے بچ کر آپ ﷺ نے جس غار میں قیام فرمایا اس کا نام ہے:

(ا) غار حرا (ب) غار ثور (ج) شعب ابی طالب

5۔ کفار حضرت بلال رضی اللہ عنہ کو اسلام لانے پر سزا دیتے تھے:

(ا) کانٹوں پر سلا کر (ب) ریت پر لٹا کر (ج) انگاروں پر لٹا کر

سوال 4: کالم (الف) کو الفاظ کالم (ب) کے الفاظ کے ساتھ ملائیں: 5

کالم (الف)	کالم (ب)
والدین بہت محبت اور	دکھ اور تکلیف برداشت کرتے ہیں
والدین اولاد کی خاطر ہر قسم کا	ظلم ہے
ہمسائے سے اچھا سلوک کرنے والا	احترام کے مستحق ہیں
بیٹوں اور بیٹیوں سے	اللہ کا دوست ہے
اولاد میں فرق کرنا	برابری کا سلوک کرنا چاہیے

{حصہ انشائیہ}

نوٹ: مندرجہ ذیل میں سے کوئی سے پانچ سوالات کے جواب لکھیں۔ 25

سوال نمبر 1: حقوق العباد سے کیا مراد ہے؟

جواب: .....

.....

.....

سوال نمبر 2: اولاد کے لیے والدین کی کیا ذمہ داریاں ہیں؟

جواب: .....

.....

.....

سوال نمبر 3: ایمان داری سے کیا مراد ہے؟

جواب: .....

.....

.....

سوال نمبر 4: ہمیں بحیثیت مسلمان سادگی کے حوالے سے کیا کرنا چاہیے؟

جواب: .....

.....

.....

سوال نمبر 5: مواخات مدینہ کسے کہا جاتا ہے؟

جواب: .....

.....

.....

سوال نمبر 6: خواتین، بچوں اور مردوں میں سے سب سے پہلے کون اسلام لائے؟

جواب: .....

.....

.....

سوال نمبر 7: حقوق اللہ سے کیا مراد ہے؟

جواب: .....

.....

.....

Foundation Series | جماعت چہارم | اردو | تھرڈ ٹرم | Time : 2:00 Hours

نام طالب علم:..... رول نمبر:.....

نام اسکول:.....

نوٹ: سوالات پرچے میں دی گئی جگہ پر ہی حل کریں۔ اضافی کاپی ہرگز مہیا نہیں کی جائے گی۔ حصہ معروضی میں کاٹ کر یا مٹا کر لکھے گئے جوابات غلط تصور ہوں گے۔

کل نمبر	حاصل کردہ نمبر	گریڈ	نتیجہ	دستخط ممتحن
50				

{حصہ معروضی}

سوال 1: خالی جگہیں پر کریں۔ 5

1۔ شاہد کو گرمیوں کی.....کا شدت سے انتظار تھا۔

2۔ پنجاب کے مقامی لوگوں کی زبان.....تھی۔

3۔ مردم شماری سے مراد .....کو گننا ہے۔

4۔ اردو اب دنیا کی.....بڑی زبان ہے۔

5۔ راشد پڑھائی میں.....تھا

سوال 2: دیے گئے الفاظ کے معانی لکھیں اور جملے بنائیں۔ 5

الفاظ	معنی	جملے
نمایاں		
گامزن		
شعور		
بل کھاتی		
چہل قدمی		

سوال 3: دیے گئے واحد کے جمع لکھیں۔ 5

واحد	جمع
فیصلہ	
منظر	
پہاڑ	
سیاح	
سایہ	

{حصہ انشائیہ}

سوال4: مندرجہ ذیل میں سے پانچ (5) سوالات کے جواب لکھیں۔ 15

1۔ شاہد کے گھر والوں نے کہاں جانے کا فیصلہ کیا؟ .....

2۔ شاہد اور اس کی امی نے کیا خریدا؟ .....

3۔ لفظ ''اردو'' کا کیا مطلب ہے؟ .....

4۔ اُردو کو قومی زبان کا درجہ کس نے دیا؟ .....

5۔ ہمارے قومی پرچم میں چاند تارا کس بات کی علامت ہے؟.....

6۔ پرچم کن مواقع پر لہرایا جاتا ہے؟ .....

7۔ نظم وضبط کے کیا معنی ہیں؟ .....

سوال5: ''درخواست برائے رخصت بوجہ بیماری'' تحریر کریں۔ 5

سوال6: ''خوشامد بُری بلا ہے'' کہانی تحریر کریں۔ 5

سوال7: سابقہ 'ان' سے پانچ الفاظ بنائیں۔ 5

سوال8: لاحقہ 'دار' سے پانچ الفاظ بنائیں۔ 5

Foundation Series | 3rd Term | Ideal English | CLASS FOUR | Time : 2:00 Hours

Name:_____ Roll No: _____

School:_____

نوٹ: سوالات پرچے میں دی گئی جگہ پر ہی حل کریں۔ اضافی کاپی ہرگز مہیا نہیں کی جائے گی۔ معروضی میں کاٹ کر یا مٹا کر لکھے گئے جوابات غلط تصور ہوں گے۔

Total Marks	Obtained Marks	Grade	Remarks	Examiner's Sign
50				

{Objective Type}

Q. No. 1: Fill in the blanks. **5**

i. He was very ..... but his master was very cruel person.

ii. He saw that a lion was ..... and coming towards him.

iii. After some days, Nasir was ..... by his master.

iv. But instead of ..... him the lion started to lick his feet.

v. So, he ..... Nasir and the lion free.

Q. No. 2: Tick (✓) the correct option. **5**

1. It was a ..... night.
   (a) cool (b) hot (c) long
2. The Arab decided to spend night in the:
   (a) forest (b) desert (c) home
3. Baba Sharif was very:
   (a) happy (b) sad (c) glad
4. Nasir's master ordered to throw him before the hungry:
   (a) leopard (b) dog (c) lion
5. Pakistan was the dream of:
   (a) Sir Syyed Ahmad (b) Quaid-e-Azam (c) Allama Iqbal

Q. No. 3: Use these words in the sentences of your own. **10**

Words	Sentences
Enjoyable	
Challenges	
Peacefully	
Knowledge	
Faith	

Subjective Type}

Q. No. 4: Answer the following questions. **10**

i. What is "Hope" according to the poet?

ii. Where were an Arab and his camel passing from?

iii. Why does the stranger want to go to Anarkali?

iv. In whose name was Pakistan created?

v. What are the benefits of cleanliness?

Q. No. 5: Write feminines of the following masculines. **5**

Lion _____ Boy _____

Actor _____ Poet _____

Male _____ King _____

Q. No. 6: Translate the sentences into English. **5**

1 وہ پانی ابالتی ہے۔

2 وہ فیس ادا کرتے ہیں۔

3 وہ دودھ نہیں پیتا ہے۔

4 آپ ہاتھ نہیں دھوتے ہیں؟

5 کیا میں پھول خریدتا ہوں؟

Q. No. 7: Write a story on "The Shepherd and Lion " or **"Three Greedy Men "** **10**

_____

_____

_____

_____

_____

_____

_____

_____

_____

_____

Foundation Series | 3rd Term | Exploring Science | CLASS FOUR | Time : 2:00 Hours

Name:_____ Roll No: _____

School:_____

نوٹ: سوالات پرچے میں دی گئی جگہ پر ہی حل کریں۔اضافی کاپی ہرگز مہیا نہیں کی جائے گی۔معروضی میں کاٹ کر یا مٹا کر لکھے گئے جوابات غلط تصور ہوں گے۔

Total Marks	Obtained Marks	Grade	Remarks	Examiner's Sign
50				

{Objective Type}

Q. No. 1: Fill in the blanks: **10**

1. The rotation of earth is completed in _____.
2. The movement of an electric fan is _____.
3. A pulley is used to lift _____.
4. A tap is an example of _____.
5. Solid have _____ shape.

Q. No. 2: Tick (✓) the correct statement and cross (×) the wrong statement. **5**

1. Lever is used to lift loads. ☐
2. The earth is round like a ball. ☐
3. Diamond is a soft mineral. ☐
4. Energy is not necessary for us. ☐
5. The Sun is the smallest source of Energy. ☐

Q.3 No: Match the columns. **5**

Column A	Column B
Solids	water, milk, oil
Liquids	air, water, soil
Gases	soild, liquid, gas
Types of Pollution	wood, stone, metal
Types of Matter	oxygen, carbon dioxide

{Subjective Type}

Note: Answer the following questions. **30**

1. How the earth moves or rotates?

2. What is revolution?

3. Write four uses of machines?

4. Write two examples of lever?

5. What are minerals?

6. What is diamond, write its usage also?

7. Define the word food.

Foundation Series | 3rd Term | **Social Studies** | CLASS FOUR | Time : 2:00 Hours

Name:_____ Roll No: _____

School:_____

نوٹ: سوالات پرچے میں دی گئی جگہ پر ہی حل کریں۔اضافی کاپی ہرگز مہیا نہیں کی جائے گی۔معروضی میں کاٹ کر یا مٹا کر لکھے گئے جوابات غلط تصور ہوں گے۔

Total Marks	Obtained Marks	Grade	Remarks	Examiner's Sign
50				

{Objective Type}

Q. No. 1: Fill in the blanks: **5**

1. Except _____ no planet has life.
2. The distance between the Sun and the Earth is _____.
3. Some colleges are up graded as _____.
4. We obtain wood and _____ from the forests.
5. Silk worms reared on the leaves of mulberry trees.

Q. No. 2: Tick (✓) the correct option. **10**

1. Which institute gives loan to the farmers?

   (a) Social welfare (b) Dar-ul-Aman (c) Co-operative Bank

2. _____ takes care shrines and Masajid.

   (a) Auqaf (b) Dar-ul-Aman (c) Edhi trust

3. Which is the biggest planet of Solar System?

   (a) Mars (b) Juipter (c) Pluto

4. We sent _____ in the space.

   (a) plane (b) tanks (c) setelites

5. In cold areas, the people use:

   (a) tea (b) lassi (c) cold drinks

Q. No. 3: Match the columns. **5**

Column A	Column B
Brightest planet	in Milky Way Galary
Our Solar System	Venus
Pinpoint Lights	The Earth
Most Denser	Except on the Earth
No Life	the stars

{Subjective Type}

Q. No. 4: Note: Answer the following questions. (any five) **30**

1. **What is the Solar System?**

2. **Name the planets of the Solar System.**

3. **Define welfare institutions.**

4. **What does E-mail stand for?**

5. **How is the climate of Karachi?**

6. **Which is the most beautiful Masjid of Pakistan?**

7. **What is Hilal-e-Ahmar?**

Name:_____ Roll No: _____

School:_____

نوٹ: سوالات پرچے میں دی گئی جگہ پر ہی حل کریں۔اضافی کاپی ہرگز مہیا نہیں کی جائے گی۔معروضی میں کاٹ کر یا مٹا کر لکھے گئے جوابات غلط تصور ہوں گے۔

Total Marks	Obtained Marks	Grade	Remarks	Examiner's Sign
50				

{Objective Type}

Q. No. 1: Fill in the blanks: **5**

1. _____ is the most significant and useful feature of computer.
2. Internet is a _____ collection of networks.
3. A national ISP is a business that provides internet access in _____ and _____ nationwide.
4. _____ is a motion picture set on a desktop.
5. Many Icons appear on the screen of desktop called _____.

Q. No. 2: Tick (✓) the correct option. **10**

1. _____ is/are service/s of internet:

   (a) www (b) E-mail (c) both a & b (d) none of these
2. Dial up is _____ speed connection.

   (a) high (b) low (c) average (d) none of these
3. _____ is/are example/s of web browser/s.

   (a) Firefox (b) Google Chrome (c) both a & b (d) Vista
4. You can change the orientation of desktop into _____.

   (a) landscape (b) angular (c) projectile (d) none of these
5. A theme determines graphic elements like:

   (a) text (b) colours (c) fonts (d) none of above

Q. No. 3: Match the columns: **5**

Column A	Column B
Net	Nonprofit Organizations
Org	Google Chrome
Browser	ISP
Wi-Fi	Radio Signals
PTCL	Network Providers

{Subjective Type}

Q. No. 4: Answer the following questions. (any five) **30**

1. **Write down about Internet.**

2. **What is difference between Word Wide Web and Website?**

3. **What is Internet Addresses?**

4. **How do you set a screen saver? Explain the method.**

5. **What do you mean by application software?**

6. **What is meant by SmartArt?**

7. **How can you change the size of your document?**

Foundation Series | جماعت پنجم | اسلامیات | تھرڈ ٹرم | Time : 2:00 Hours

نام طالب علم:..... رول نمبر:.....

نام اسکول:.....

نوٹ: سوالات پرچے میں دی گئی جگہ پر ہی حل کریں۔ اضافی کاپی ہرگز مہیا نہیں کی جائے گی۔ حصہ معروضی میں کاٹ کر یا مٹا کر لکھے گئے جوابات غلط تصور ہوں گے۔

کل نمبر	حاصل کردہ نمبر	گریڈ	نتیجہ	دستخط ممتحن
50				

{حصہ معروضی}

سوال 1: سورۃ التین مع ترجمہ زبانی سنائیں۔ **10**

سوال 2: خالی جگہ پُر کریں۔ **5**

1۔ بخل.....فعل ہے۔

2۔ اسلامی اخوت کی بنیاد.....پر ہے۔

3۔ رواداری کے معنی.....رکھنے کے ہیں۔

4۔ عفو کے معنی.....ہیں۔

5۔ ظاہری طور پر.....نے اسلام قبول کیا۔

سوال 3: درست جواب کا انتخاب کریں اور (✓) نشان لگائیں۔ **10**

1۔ قریش کی مخالفت کے بعد آپ ﷺ تشریف لے گئے۔

(ا) شام (ب) طائف (ج) جدہ

2۔ اپنی بات زبردستی نہیں منواتا:

(ا) عیسائی مذہب (ب) یہودی مذہب (ج) مذہب اسلام

3۔ اخوت کے معنی ہیں:

(ا) بھائی چارہ (ب) انصاف (ج) عدل

4۔ خندق کس کے مشورے سے کھودی گئی؟

(ا) حضرت علی رضی اللہ عنہ (ب) حضرت عمر رضی اللہ عنہ (ج) حضرت سلمان فارسی رضی اللہ عنہ

5۔ عید کی نماز میں زائد تکبیر پڑھی جاتی ہیں:

(ا) چار (ب) چھے (ج) دس

سوال 4: کالم (الف) کو الفاظ کالم (ب) کے الفاظ کے ساتھ ملائیں: **5**

کالم (الف)	کالم (ب)
اخوت	اسلام
اسلامی اخوت کی بنیاد	آپس میں
رنگ و نسل اور زبان کا فرق مٹا دیتا ہے	بھائی چارہ
ایک جسم اور روح کی مانند ہیں	اللہ کی رسی
مضبوطی سے تھام لو	کلمہ طیبہ
تفرقہ میں ڈالو	تمام مسلمان

{حصہ انشائیہ}

نوٹ: مندرجہ ذیل میں سے کوئی سے پانچ سوالات کے جواب لکھیں۔ 20

سوال نمبر 1: کفایت شعاری سے کیا مراد ہے؟

جواب: .....

.....

.....

سوال نمبر 2: اخوت کے بارے میں سورۃ آل عمران کی آیت کا ترجمہ لکھیں۔

جواب: .....

.....

.....

سوال نمبر 3: نبی کریم ﷺ نے نجران کے عیسائیوں کو کہاں ٹھہرایا؟

جواب: .....

.....

.....

سوال نمبر 4: فتح مکہ کے بعد آپ ﷺ نے لوگوں سے کیا سلوک کیا؟

جواب: .....

.....

سوال نمبر 5: صالح لوگوں کی دوستی کے کیا فائدے ہیں؟

جواب: .....

.....

.....

سوال نمبر 6: عربی میں ''احزاب'' کے کیا معنی ہیں؟

جواب: .....

.....

.....

سوال نمبر 7: عیدالفطر میں کتنی زائد تکبیریں پڑھی جاتی ہیں؟

جواب: .....

.....

.....

.....

Foundation Series | جماعت پنجم | اردو | ٹھرڈ ٹرم | Time : 2:00 Hours

نام طالب علم:..... رول نمبر:.....

نام اسکول:.....

نوٹ: سوالات پرچے میں دی گئی جگہ پر ہی حل کریں۔ اضافی کاپی ہرگز مہیا نہیں کی جائے گی۔ حصہ معروضی میں کاٹ کر یا مٹا کر لکھے گئے جوابات غلط تصور ہوں گے۔

کل نمبر	حاصل کردہ نمبر	گریڈ	نتیجہ	دستخط ممتحن
50				

{حصہ معروضی}

سوال 1: خالی جگہیں پر کریں۔ 5

1۔ حجرِ اسود.....کرتے وقت ایک شور تھا۔

2۔ کسی زمانے میں ایک.....بادشاہ حکومت کرتا تھا۔

3۔ مینار پاکستان تقریباً.....بلند ہے۔

4۔ پہلی وحی.....میں نازل ہوئی۔

5۔ حضرت علیؓ کا لقب.....ہے۔

سوال 2: دیے گئے الفاظ کے معانی لکھیں اور جملے بنائیں۔ 5

الفاظ	معانی	جملے
بھدے		
ناز		
شاہکار		
کرشمے		
دانائی		

سوال 3: دیے گئے الفاظ کے متضاد لکھیں۔ 5

الفاظ	متضاد
ممکن	
خوب صورت	
مشکل	
جیت	
پسند	

{حصہ انشائیہ}

سوال4: مندرجہ ذیل میں سے پانچ (5) سوالات کے جواب لکھیں۔ 15

1۔ بادشاہ کو کس طرح کا محل بنوانے کا خیال آیا؟ .....

2۔ آپ ﷺ کے فیصلے سے قبیلے کے لوگوں کو خوشی کیوں ہوئی؟ .....

3۔ نظم ''بارہ سنگا'' سے ہمیں کیا سبق ملتا ہے؟ .....

4۔ کے-ٹو کا مطلب کیا ہے؟ .....

5۔ عیدالفطر ''میٹھی عید'' کیوں کہلاتی ہے؟ .....

6۔ زمانے کی خدمت کون کرتا ہے؟ .....

7۔ حضرت علیؓ کا پورا نام کیا تھا؟ .....

سوال5: ہیڈ ماسٹر کے نام ''درخواست برائے فیس معافی'' لکھیں۔ 5

سوال6: کہانی لکھیں۔ ''جھوٹ کی سزا'' 5

سوال7: سابقہ 'ان' سے پانچ الفاظ بنائیں۔ 5

سوال8: لاحقہ 'گار' سے پانچ الفاظ بنائیں۔ 5

Name:_____ Roll No: _____

School:_____

نوٹ: سوالات پرچے میں دی گئی جگہ پر ہی حل کریں۔ اضافی کاپی ہرگز مہیا نہیں کی جائے گی۔ معروضی میں کاٹ کر یا مٹا کر لکھے گئے جوابات غلط تصور ہوں گے۔

Total Marks	Obtained Marks	Grade	Remarks	Examiner's Sign
50				

{Objective Type}

Q. No. 1: Fill in the blanks. **5**

i. Angels are knocking ..... your door.

ii. The angels are .....haste.

iii. We shell enjoy the .....falling on us.

iv. In a .....forest there was an apple tree.

v. The wolf was very ..... .

Q. No. 2: Tick (✓) the correct option. **5**

1. A ..... lived on a apple tree.
   (a) crocodile (b) monkey (c) snake
2. Who says" I like rainy weather?"
   (a) Jamil (b) Hamid (c) Ali
3. Angels once departed come:
   (a) more (b) no more (c) late
4. What does the fire do?
   (a) cools (b) protects (c) Burns
5. The shephered shouted "My goats are .....
   (a) in danger (b) safe (c) hungry

Q. No. 3: Use these words in the sentences of your own. **10**

Happily _____

Tears _____

Gloomy _____

Wait _____

Produce _____

Subjective Type}

Q. No. 4: Answer the following questions. **15**

i. Who went together to a distant village? _____

ii. What is the benefit of early rising? _____

iii. Why do we take care in rain? _____

iv. How did the wolf die? _____

v. Which things are available in villages? _____

Q. No. 5: Translate into English. **5**

آج جمعہ ہے۔

اسلم ہاکی کھیلتا ہے۔

تم کھانا کھاتے ہو۔

کیا اس نے میرا انتظار کیا؟

جھوٹ مت بولو۔

Q. No. 6: Write a story or an eassy

"A Foolish Stag " or **"My Best Teacher"** **10**

_____

_____

_____

_____

_____

_____

_____

_____

_____

_____

Foundation Series | 3rd Term | Exploring Science | CLASS FIVE | Time : 2:00 Hours

Name:_____ Roll No: _____

School:_____

نوٹ: سوالات پرچے میں دی گئی جگہ پر ہی حل کریں۔اضافی کاپی ہرگز مہیا نہیں کی جائے گی۔معروضی میں کاٹ کر یا مٹا کر لکھے گئے جوابات غلط تصور ہوں گے۔

Total Marks	Obtained Marks	Grade	Remarks	Examiner's Sign
50				

{Objective Type}

Q. No. 1: Fill in the blanks: **10**

1. Do not Put thermometer in _____ water.
2. _____ is present in a thermometer.
3. _____ force is present in magnets.
4. The gravitational force is a _____ force.
5. Manure is rich in _____.

Q. No. 2: Tick (✓) the correct statement and cross (×) the wrong statement. **5**

1. Action and reaction are opposite forces. ☐
2. There is no gravitational force any where. ☐
3. Mercury is always helpful to us. ☐
4. Dead plants are biodegradable. ☐
5. Environment has effects on us. ☐

Q.3 No: Match the columns. **5**

Column A	Column B
Earth	Water
Magnets	Gravitaiton
Propeller	force
Action and reaction	magnetic force
Push and pull	opposite force

{Subjective Type}

Note: Answer the following questions. **30**

1. Define temperature?

2. Give two safety measures to use thermometer?

3. What is force?

4. How can a magnet be formed?

5. What is the benefits of boiling?

6. What is the environment?

7. What is the work of the nervous system?

Foundation Series | 3rd Term | **Social Studies** | CLASS FIVE | Time : 2:00 Hours

Name:_____ Roll No: _____

School:_____

نوٹ: سوالات پرچے میں دی گئی جگہ پر ہی حل کریں۔اضافی کاپی ہرگز مہیا نہیں کی جائے گی۔معروضی میں کاٹ کر یا مٹا کر لکھے گئے جوابات غلط تصور ہوں گے۔

Total Marks	Obtained Marks	Grade	Remarks	Examiner's Sign
50				

{Objective Type}

Q. No. 1: Fill in the blanks: **5**

1. Trade becomes a source of increasing national _____.
2. Prices in the market are fixed on the basis of supply and _____.
3. These are _____ types of international trade.
4. _____ is a big buyer of Pakistani cotton.
5. Government directs the _____ ideologically.

Q.2 No: Tick (✓) the correct option. **10**

1. You need _____ for material goods.

   (a) food (b) money (c) nothing

2. Goods are _____ things which fulfil human needs.

   (a) material (b) non material (c) only

3. The head of province is:

   (a) Prime Minister (b) Chief Minister (c) Governor

4. The laws and rules are made by the:

   (a) people (b) government (c) both

5. Supreme Court is situated in:

   (a) Islamabad (b) Karachi (c) Lahore

Q.3 No: Match the columns. **5**

Column A	Column B
Import	Rice
Sri Lanka	Italy
Cotton	Export
International trade	Agricultural country
Pakistan is an	Import and Export

{Subjective Type}

Note: Answer the following questions. (any five) **30**

1. What is the best use of our resources?

2. Define economic stability.

3. How many types of international trade are there?

4. How Pakistan gets huge sums of foreign exchange?

5. What is role of the courts of the country?

6. Name the neighbouring countries of Pakistan.

7. Define river plain.

Foundation Series | 3rd Term | **Computer** | CLASS FIVE | Time : 2:00 Hours

Name:_____ Roll No: _____

School:_____

نوٹ: سوالات پرچے میں دی گئی جگہ پر ہی حل کریں۔اضافی کاپی ہرگز مہیا نہیں کی جائے گی۔معروضی میں کاٹ کر یا مٹا کر لکھے گئے جوابات غلط تصور ہوں گے۔

Total Marks	Obtained Marks	Grade	Remarks	Examiner's Sign
50				

{Objective Type}

Q. No. 1: Fill in the blanks: **5**

1. A mainframe computer does not use the same _____ as a personal computer.
2. There are _____ kinds of operating systems.
3. Windows Server 2008 is an upgrade to Windows _____.
4. _____ is the best way to attract the attention of audience.
5. A picture depicts thousand _____.

Q. No. 2: Tick (✓) the correct option. **10**

1. _____ is an example of animation.
   (a) cartoons (b) wallpapers (c) screen savers (d) all of above
2. _____ is utilized to create presentation.
   (a) PowerPoint 2010 (b) Word 2010 (c) Excel 2010 (d) none of these
3. _____ is an example of stand alone utility.
   (a) Mac OS X (b) Windows Server 2008 (c) Solaris (d) NetWare
4. _____ is designed specifically for e-commerce applications.
   (a) LINUX (b) UNIX (c) Solaris (d) NetWare
5. To run Windows Vista Basic, your computer must have at least _____ of RAM.
   (a) 521 MB (b) 612 MB (c) 621 MB (d) 512 MB

Q. No. 3: Match the columns: **5**

Column A	Column B
MAC OS X	five products
UNIX	GNOME
Linux	Macintosh Operating System
Solaris	Bell Laboratories
Windows Server 2008	Sun Microsystems
NetWare	Open Source Software
Palm OS	Pocket PC
Windows Mobile	Graffiti

{Subjective Type}

Q. No. 4: Answer the following questions. (any five) **30**

1. Write a note on Windows XP.

2. What do you know about Mac OS X?

3. What is difference between Palm OS and Symbian OS?

4. How do you resize and colour the text of presentation?

5. Where is the office button? What tools does it contain?

6. How can you open a program? Explain anyone method in your own words.

Foundation Series | *3rd Term* | Calculative **Maths** | CLASS ONE | *Time : 2:00 Hours*

Student's Name: _____ Roll No: _____

School Name: _____

نوٹ: سوالات پرچے میں دی گئی جگہ پر ہی حل کریں۔اضافی کاپی ہرگز مہیا نہیں کی جائے گی۔معروضی میں کاٹ کر یا مٹا کر لکھے گئے جوابات غلط تصور ہوں گے۔

Total Marks	Obtained Marks	Grade	Remarks	Examiner's Sign
50				

Q.1: Add the following numbers. (any five) (10)

876 + 113 =	456 + 433 =	723 + 468 =	888 + 555 =	987 + 456 =	468 + 689 =

Q.2: Subtract the followings numbers. (any five) (10)

700 – 370 =	622 – 450 =	654 – 564 =	423 – 367 =	413 – 286 =	700 – 521 =

Q.3: There are 512 trees in one park and 479 in another Park. How many trees are there in two parks? (5)

Q.4: Anum had 77 dolls. She gave 38 dolls to her sister. How many dolls are left? (5)

Q.5: Multiply (10)

37 x 2 =	97 x 3 =	75 x 2 =	98 x 3 =	77 x 4 =	83 x 3 =

Q.6: Write down the name of the following shapes. (5)



Q.7: Colour the shapes which are divided into quarters. (5)

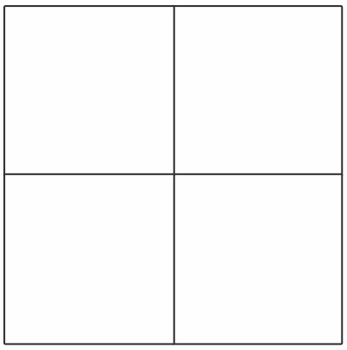
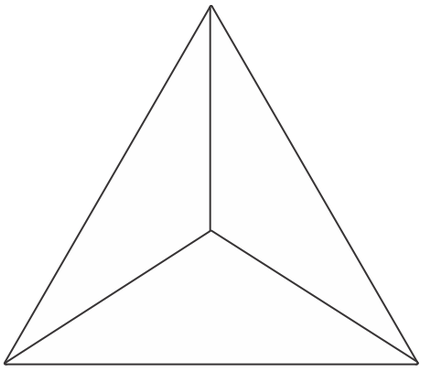
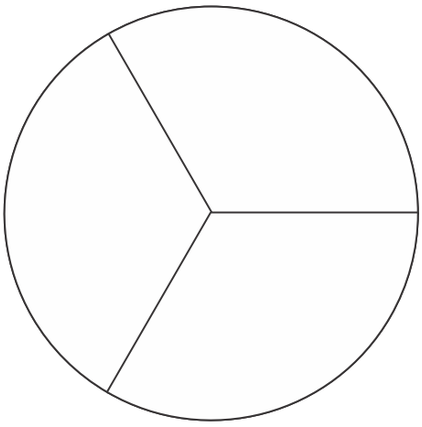
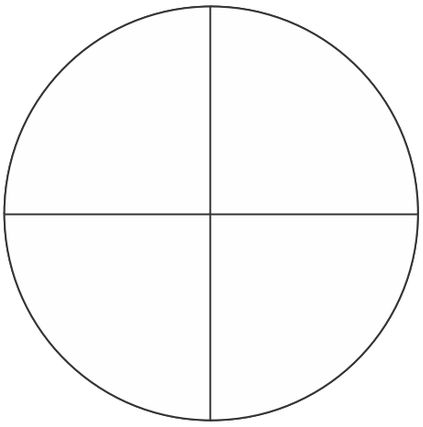



Foundation Series | *3rd Term* | Calculative **Maths** | CLASS TWO | *Time : 2:00 Hours*

Student's Name: _____ Roll No: _____

School Name: _____

نوٹ: سوالات پرچے میں دی گئی جگہ پر ہی حل کریں۔اضافی کاپی ہرگز مہیانہیں کی جائے گی۔معروضی میں کاٹ کر یا مٹا کر لکھے گئے جوابات غلط تصور ہوں گے۔

Total Marks	Obtained Marks	Grade	Remarks	Examiner's Sign
50				

Q.1: Add these. (Any five) (5)

3645 + 6234	1600 + 7248	8071 + 1806	3724 + 5154	3924 + 4065	3697 + 2479

Q.2: Complete these. (any five) (5)

7687 ٢٥٤٩ –	5764 ٢٤٥٥ –	9013 ٧٠٠٨ –	2785 ١٨٩٦ –	3753 ٨٦٤ –	4640 ٢٦٧٨ –

Q.3: Find the product. (any five) (10)

198 x 3	725 x 3	425 x 8	974 x 39	967 x 63	807 x 49

Q.4: Solve these. (8)

5) 825 –	2) 105 –	3) 529 –	7) 496 –

Q.5: Add these. (4)

H Hour	M Minute	S Second
3	15	14
+ 2	44	30

H Hour	M Minute	S Second
7	34	32
+ 1	20	25

Q.6: Draw line segment of the following length. (3)

5.5 cm

10 cm

12 cm

Q.7: Write the name of geometrical shapes. (5)

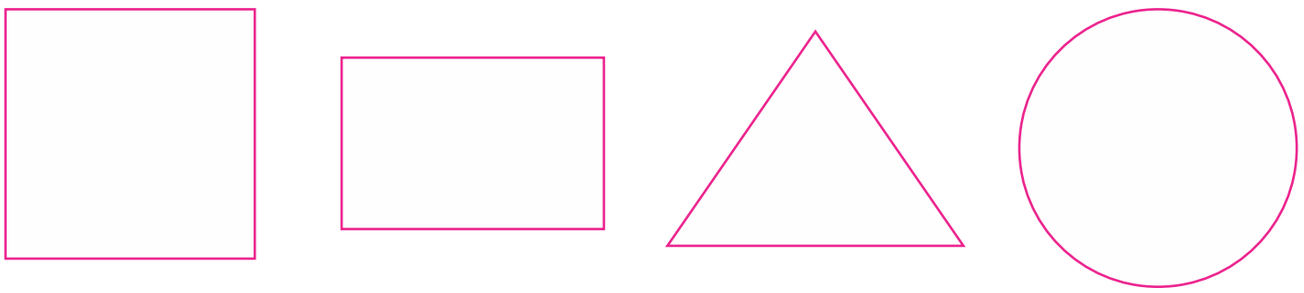

Q.8: Read the pictograph and answer the following questions. (10)

Fazal	🚗🚗🚗🚗🚗🚗
Zahid	🚗🚗🚗🚗🚗🚗🚗🚗
Anas	🚗🚗🚗🚗🚗
Zaib	🚗🚗🚗
Akbar	🚗🚗🚗🚗🚗
Usman	🚗🚗

1. What is the total of Fazal and Anas' cars? _____
2. How many cars do Zaib and Akbar have? _____
3. Who has the most number of cars? _____
4. Who is 2nd in having the most number of cars? _____
5. How many cars do all friends have? _____

Foundation Series | 3rd Term | Calculative **Maths** | CLASS THREE | Time : 2:00 Hours

Student's Name: _____ Roll No: _____

School Name: _____

نوٹ: سوالات پرچے میں دی گئی جگہ پر ہی حل کریں۔اضافی کاپی ہرگز مہیا نہیں کی جائے گی۔معروضی میں کاٹ کر یا مٹا کر لکھے گئے جوابات غلط تصور ہوں گے۔

Total Marks	Obtained Marks	Grade	Remarks	Examiner's Sign
50				

Q.1: Solve the following according to sign. (10)

1	2	3	4	5
8320 + 1116	3707 + 1916	1473 + 3264	2121 − 1820	4000 − 2989

Q.2: Arrange the following fractions in the descending order. (10)

1. $\frac{9}{14}$, $\frac{5}{21}$, $\frac{6}{7}$
2. $\frac{24}{39}$, $\frac{40}{52}$, $\frac{35}{13}$
3. $\frac{2}{5}$, $\frac{15}{20}$, $\frac{45}{30}$
4. $\frac{1}{11}$, $\frac{17}{33}$, $\frac{25}{44}$
5. $\frac{6}{7}$, $\frac{8}{12}$, $\frac{5}{6}$

(6)

Q.3: Convert into seconds. (3)

1. 1 hour
2. 1 hour and 4 minutes

Q.4: How many days in? (3)

1. 168 hours
2. 600 hours

Q.5: If price of 1 ice-cream cup is Rs. 35, The total price of 5 ice-creams cups would be Rs 175. (4)

Q.6: Write down the names of triangles with respect to sides. (5)

1

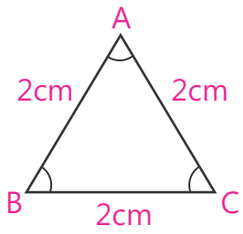

2

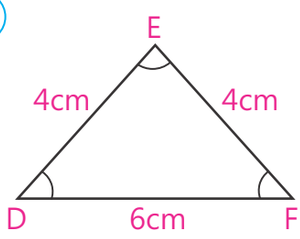

3

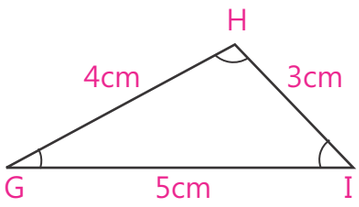

4

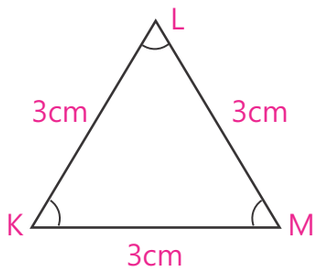

Q.7: Draw the following angles with the help of protractor and ruler. (10)

1. 60°
2. 90°
3. 30°
4. 100°
5. 105°
6. 120°

Q.8: Draw the line graph according to the given data of student's weekly tests. (5)

Days	Mon	Tue	Wed	Thu	Fri
Marks	80	50	70	60	70

Foundation Series | *3rd Term* | Calculative **Maths** | CLASS FOUR | *Time : 2:00 Hours*

Student's Name: _____ Roll No: _____

School Name: _____

نوٹ: سوالات پرچے میں دی گئی جگہ پر ہی حل کریں۔اضافی کاپی ہرگز مہیا نہیں کی جائے گی۔معروضی میں کاٹ کر یا مٹا کر لکھے گئے جوابات غلط تصور ہوں گے۔

Total Marks	Obtained Marks	Grade	Remarks	Examiner's Sign
50				

Q.1: Find the H.C.F of the following numbers. (9)

1. 6 and 12
2. 84 and 80
3. 7, 21, 35

Q.2: Solve the following sums. (any five) (10)

(1) 876.325 + 972.687 = _____

(2) 569.804 + 653.297 = _____

(3) 788.967 + 543.343 = _____

(4) 804.256 – 725.897 = _____

(5) 985.764 – 397.876 = _____

(6) 125.007 – 87.832 = _____

Q.3: Maya bought 36 m 42 cm of cloth. Hafsa bought 28 m 71 cm of cloth. How many metres of cloth did they both buy? (4)

Q.4: Draw the circle of following Radius. (8)

1. 2 cm
2. 5 cm
3. 8.5 cm
4. 10 cm

Q.5: Draw the following angles with the help of protractor. (8)

1. 30° 2. 50° 3. 90° 4. 120°

Q.6 Name the following triangle w.r.t angles. (3)

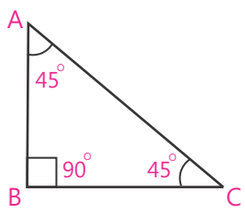	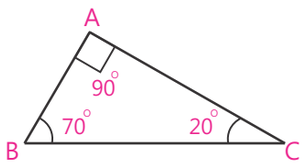	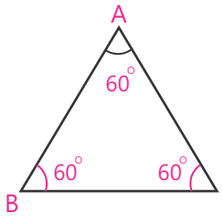	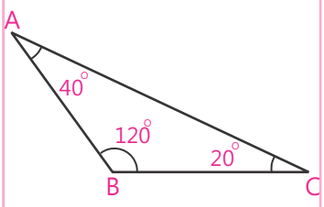

Q.7 Write the names of triangle w.r.t sides. (3)

Q.8 Answer the questions according to pie graph. (5)

Zahid earns Rs. 16000 per month. His monthly expenditure is shown in the pie graph. Read the graph and answer to the following questions.

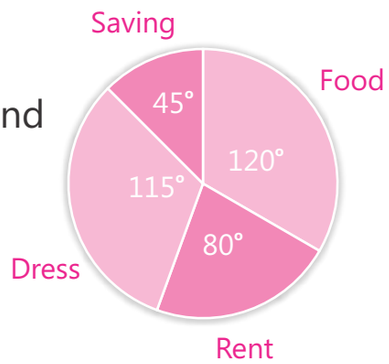

1. In how many equal sectors the pie graph has been divided? _____
2. What amount he spends on food? _____
3. What amount he spends on rent? _____
4. What amount he spends on dress? _____
5. How much amount he save? _____

Foundation Series | *3rd Term* | Calculative **Maths** | CLASS FIVE | *Time : 2:00 Hours*

Student's Name: _____ Roll No: _____

School Name: _____

نوٹ: سوالات پرچے میں دی گئی جگہ پر ہی حل کریں۔اضافی کاپی ہرگز مہیا نہیں کی جائے گی۔معروضی میں کاٹ کر یا مٹا کر لکھے گئے جوابات غلط تصور ہوں گے۔

Total Marks	Obtained Marks	Grade	Remarks	Examiner's Sign
50				

Q.1: Change the following numerals in international system of numbers. (10) (any five)

i. 23456789 ( )
ii. 523654500 ( )
iii. 500605204 ( )
iv. 37480501 ( )
v. 456789321 ( )
vi. 428576253 ( )

Q.2: Write the place value of ringed digits. (any five) (10)

I. 4③0632 ( )
ii. 6⑤31209 ( )
iii. 449⑦68352 ( )
iv. 824⑧64900 ( )
v. 3②2776164 ( )
vi. 219⑨12017 ( )

Q.3: Find the average value of the following numbers. (any five) (10)

i. 15, 18, 10, 28, 31, 21
ii. 40, 60, 36, 90
iii. 5, 7, 25, 40, 8
iv. 8m , 42m, 71m , 31m
v. Rs. 24, Rs. 35, Rs. 65, Rs. 70
vi. 30kg, 70kg, 40kg

Q.4: A diamond necklace is sold for Rs. 128800 and got Rs. 4880 less than the cost price. Calculate the cost price of the necklace. (3)

Q.5: Professor Najam taught a class for 95 minutes. It started at 5.45 pm, find when his class ends? (3)

Q.5: Draw triangle of the following measures. (3)

$\triangle PQR$ if $m\overline{PQ} = 3$ cm, $m\overline{QR} = 4$ cm, $m\angle Q = 30^\circ$

Q.6: Determine the perimeter of squares having side length as. (4)

i. 8 cm ii. 13 cm iii. 6.7 cm iv. 9.5 cm

Q.7: Define the following: (any two) (4)

i. Quadrilateral ii. Parallelogram
iii. Rhombus iv. Trapezium

Q.8: The Students of class 5th collected the information about the daily temperature in a week, which are given in the below table. Draw a line graph. (3)

Days	Mon	Tues	Wed	Thur	Fri	Sat
Temperature	35°C	40°C	38°C	45°C	46°C	44°C